INSTITUCIÓN EDUCATIVA FEDERICO SIERRA ARANGO
Resoluciones Dptales. 15814 de 30/10/2002 - 9495 de 3/12/2001
NIT: 811039779-1 DANE: 105088001750
Bello - Antioquia

Periodo	**4**	**Semanas 1-2**	**Fecha**	**MES**	**septiembre**	**DÍA**	**13-24**	**AÑO**	**2021**
Educador:	**Lila Milanés, Any Serna, Leidy Pedraza, Gladys Álvarez**			**Área: MATEMATICAS**					
Grado:	**2**	**OBSERVACIONES:** **PROYECTO: Leer todo el taller antes de elaborarlo.** **Copia en el cuaderno la base conceptual correspondiente y realiza las actividades**							

COMPETENCIA: Practicar y aprender las tablas de multiplicar.

Base conceptual 1. La tabla del 8

Ejercicio 1

Tabla del 8

8 x 1= 8	8 x ☐ = 32	8 x 7 = ☐
8 x ☐ = 16	8 x ☐ = 40	8 x ☐ = 64
8 x 3 = ☐	8 x 6 = ☐	8 x 9 = ☐

Ejercicio 2

Resuelve las siguientes multiplicaciones:

10	8	11	5
x 8	x 8	x 8	x 8
3	4	1	6
x 8	x 8	x 8	x 8
12	2	7	9
x 8	x 8	x 8	x 8

edufichas.com

Ejercicio 3

LA TABLA DE MULTIPLICAR DEL 8

A estas multiplicaciones le hemos dado la vuelta con la propiedad conmutativa. Pinta el dibujo según el color que corresponde a la solución de cada multiplicación.

AMARILLO	ROJIZO	VERDE OSCURO	VERDE CLARO	NARANJA
8 x 8 =	4 x 8 =	6 x 8 =	1 x 8 =	2 x 8 =

VIOLETA	NEGRO	ROJO	VERDE	MARRÓN
7 x 8 =	10 x 8 =	3 x 8 =	9 x 8 =	5 x 8 =



Ejercicio 4

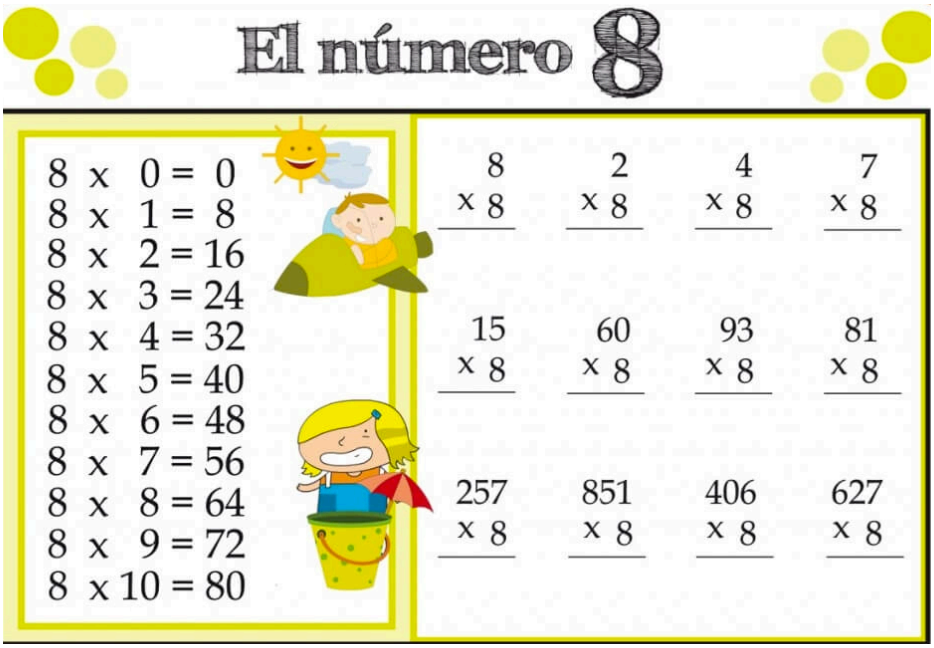

Ejercicio 5

Colorea los cuadros según los resultados de la tabla del 8.

1	2	3	4	5	6	7	8	9	10
11	12	13	14	15	16	17	18	19	20
21	22	23	24	25	26	27	28	29	30
31	32	33	34	35	36	37	38	39	40
41	42	43	44	45	46	47	48	49	50
51	52	53	54	55	56	57	58	59	60
61	62	63	64	65	66	67	68	69	70
71	72	73	74	75	76	77	78	79	80
81	82	83	84	85	86	87	88	89	90
91	92	93	94	95	96	97	98	99	100

Ejercicio 6

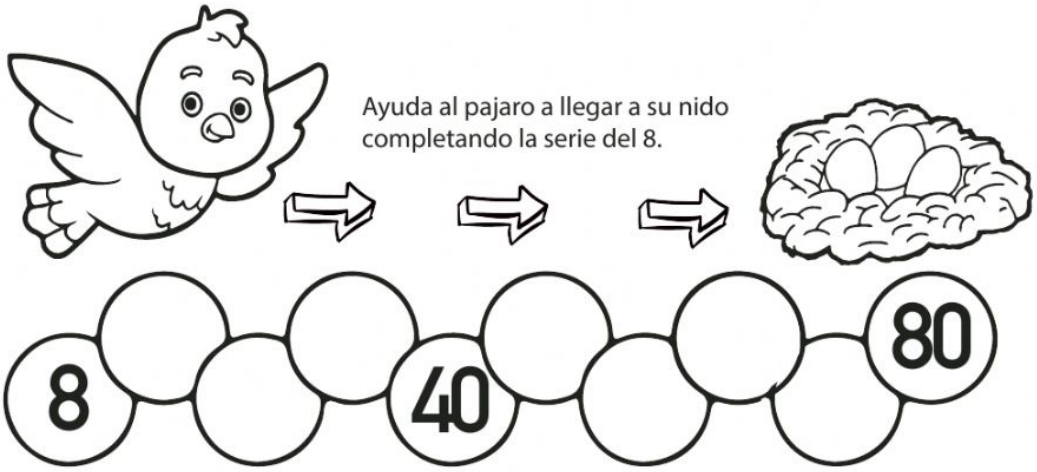

Base conceptual 2. Repaso con las tablas vistas

Nombre:_____ Fecha:_____

MULTIPLICACIONES

Tablas del 1, del 2 ,del 3, del 4, del 5

1 x 3 = ☐	4 x 5 = ☐	2 x 4 = ☐
1 x 6 = ☐	4 x 0 = ☐	2 x 7 = ☐
1 x 2 = ☐	4 x 1 = ☐	2 x 9 = ☐

2 x 3 = ☐	5 x 5 = ☐	3 x 4 = ☐
2 x 6 = ☐	5 x 0 = ☐	3 x 7 = ☐
2 x 2 = ☐	5 x 1 = ☐	3 x 9 = ☐

3 x 8 = ☐	1 x 1 = ☐	4 x 8 = ☐
3 x 3 = ☐	1 x 5 = ☐	4 x 6 = ☐
3 x 0 = ☐	1 x 4 = ☐	4 x 3 = ☐


Mi pareja
TABLAS DEL
5-6-7
•Observa las multiplicaciones y busca su resultado, pinta del mismo color el corazón.
40
63
5X5
56
6X6
7X7
54
24
7X9
7X8
6X4
49
93
5X8
25
36
6X9
Material gratuito
@MtraMilCamLu

- Colorea del mismo color cada multiplicación y su resultado

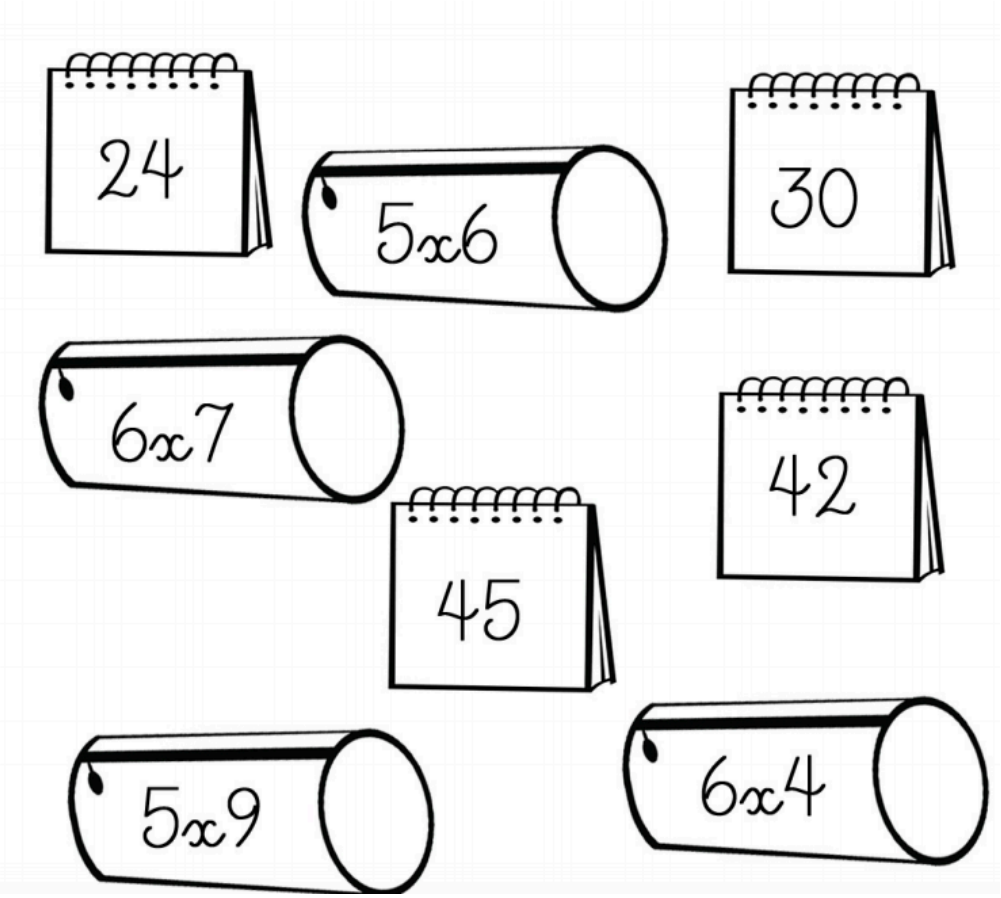

¿Cómo lo he hecho?

Problemas

- Resuelve

El pastelero hace 9 tartas al día.
¿Cuántas tartas hará en 5 días?

El pastelero hará ..... tartas en 5 días

7.- En una colmena hay 10 abejas. ¿Cuántas abejas hay 6 colmenas?

___ x ___ = _____

Hay _____ abejas.

8.- En una máquina hay 4 chicles. ¿Cuántos chicles hay en 3 máquinas?

___ x ___ = _____

Hay _____ chicles.

9.- En un jardín hay 7 tulipanes. ¿Cuántos tulipanes hay en 2 jardines?

___ x ___ = _____

Hay _____ tulipanes.

PROBLEMAS

(1) Gloria tiene 4 candelabros.
Cada candelabro tiene 3 velas.
¿Cuántas velas tiene Gloria en total?



4 x 3 = _____

Gloria tiene _____ velas en total.

(2) Nicolás hizo 6 pasteles.
En cada pastel usó 3 fresas.
¿Cuántas fresas usó en total?

_____ x 3 = _____

Nicolás usó _____ fresas en total.

(3) Gugo está asegurando las ruedas de 7 triciclos.
Cada triciclo tiene 3 ruedas.
¿Cuántas ruedas hay en total?

_____ x _____ = _____

Hay _____ ruedas en total.

Tema 7-2 Conozco la multiplicación

Leo, observo y respondo.

¿Cuántas manzanas hay?

Hay ☐ bolsas. Cada bolsa tiene △ manzanas. En total hay ⬠ manzanas.

Planteamiento ☐ X △ = ⬠ (Por) Respuesta ☐ manzanas.

Practico

X (Por) X ☐ ☐ ☐ ☐ ☐ ☐ ☐ ☐ ☐

a)

Hay ☐ platos de chuchitos. Cada plato tiene ☐ chuchitos.

¿Cuántos chuchitos hay en total?

Planteamiento Respuesta ☐ chuchitos

b)



Hay ☐ redes de pelotas. Cada red tiene ☐ pelotas.

¿Cuántas pelotas hay en total?

Planteamiento Respuesta ☐ pelotas

a)

Hay ☐ jaulas. Cada jaula tiene ☐ conejos.

¿Cuántos conejos hay en total?

Planteamiento Respuesta ☐ conejos

b)

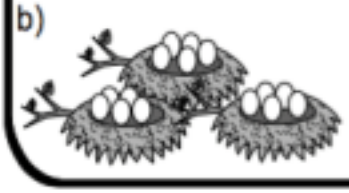

Hay ☐ nidos. Cada nido tiene ☐ huevos.

¿Cuántos huevos hay en total?

Planteamiento Respuesta ☐ huevos