INSTITUCIÓN EDUCATIVA FEDERICO SIERRA ARANGO
Resoluciones Dptales. 15814 de 30/10/2002 - 9495 de 3/12/2001
NIT: 811039779-1 DANE: 105088001750
Bello - Antioquia

GUÍA DIDÁCTICA			ASIGNATURAS: MATEMÁTICAS – GEOMETRÍA - ESTADÍSTICA		
PERIODO	**1**	**Semanas 5 y 6**	**FECHA: Del 22 de febrero al 5 de marzo**	**AÑO**	**2021**
EDUCADOR	**Sor Eugenia Pineda, Paula Rico, María Teresa Rúa, Kelly Dayana Bohórquez y Luisa Ospina**		**Fecha de entrega: marzo 5**		
GRADO:	**1°**	**GRUPO: 01, 02, 03 ,04 y 05**	**Nombre del estudiante:**		
OBSERVACIONES		Esta actividad la debes desarrollar en el cuaderno #2. Una vez realizada, debes cargar la evidencia a través de la plataforma Classroom. Será calificada en las asignaturas Matemáticas (puntos 1 al 3), Geometría (punto 4) y Estadística (punto 5).			

OBJETIVOS:
*Operar con sumas y restas sencillas.
*Reconocer si un elemento forma parte de un conjunto dado.
*Establecer relaciones de pertenencia y no pertenencia entre los elementos de un conjunto.
*Desarrollar la orientación espacial a partir de la interiorización de las nociones espaciales básicas.
*Aprender sobre el proceso de recolección y organización de datos.

1. **DIBUJO Y CALCULO**

Dibuja las cantidades, calcula y completa las respuestas.

SE PARAN EN LA RAMA 3 PAJARITOS MÁS.

¿CUÁNTOS PAJARITOS HAY AHORA EN TOTAL?
RESPUESTA: AHORA HAY.....PAJARITOS.

LE REGALARON 2 AUTITOS MÁS.
¿CUÁNTOS AUTITOS HAY AHORA EN TOTAL?

RESPUESTA: AHORA HAY.....AUTITOS.

2. **APRENDIENDO CONJUNTOS**

Marca con una X los útiles del aula

Ahora, dibuja el conjunto de útiles del aula



3. CONJUNTOS Y PERTENENCIA

Observa el video que se encuentra en el siguiente enlace https://www.youtube.com/watch?v=CRbDL2i-kgY

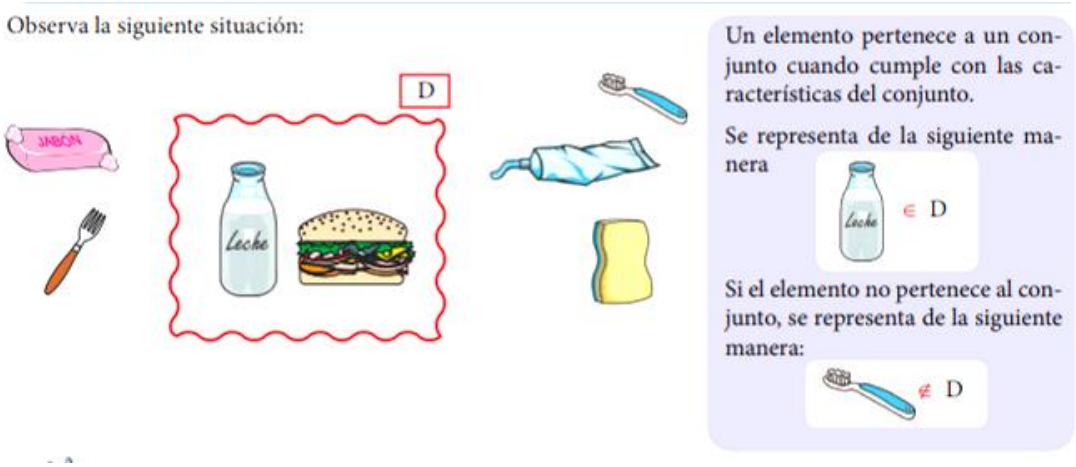

Ahora, observa los conjuntos y completa con ∈ o ∉, según convenga

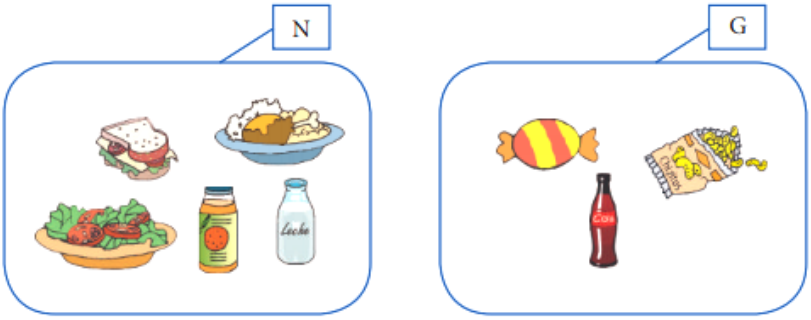

a) N

b) N

c) G

d)

G

4. NOCIONES ESPACIALES

Dibuja las imágenes de esta manera:

- Una pelota dentro del cuadrado.
- Un carro arriba del cuadrado.
- Un árbol a la derecha del cuadrado.
- Un gusano abajo del cuadrado.



5. RECOLECCIÓN Y ORGANIZACIÓN DE DATOS
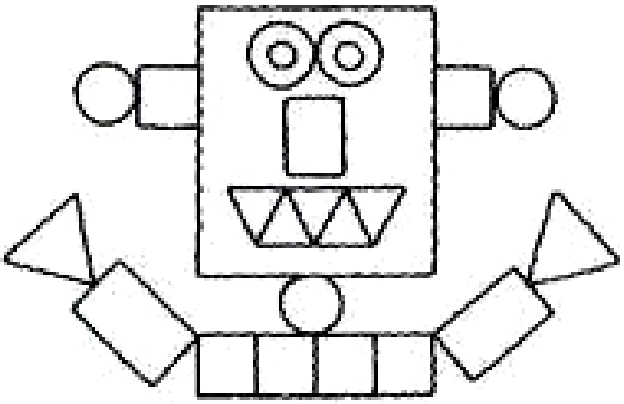
Observa el dibujo y cuenta las figuras que aparecen.