INSTITUCIÓN EDUCATIVA FEDERICO SIERRA ARANGO
Resoluciones Dptales. 15814 de 30/10/2002 - 9495 de 3/12/2001
NIT: 811039779-1 DANE: 105088001750
Bello - Antioquia

GUÍA DIDÁCTICA			**ASIGNATURAS: MATEMÁTICAS – GEOMETRÍA - ESTADÍSTICA**		
PERIODO	**1**	**Semanas 7 y 8**	**FECHA: Del 8 al 19 de marzo**	**AÑO**	**2021**
EDUCADOR	**Sor Eugenia Pineda, Paula Rico, María Teresa Rúa, Kelly Dayana Bohórquez**		**Fecha de entrega: marzo 19**		
GRADO:	**1°**	**GRUPO: 01, 02, 03, 04 y 05**	**Nombre del estudiante:**		
OBSERVACIONES	Esta actividad la debes desarrollar en el cuaderno #2. Una vez realizada, debes cargar la evidencia a través de la plataforma Classroom. Las actividades de los puntos 1 al 3 serán calificados en matemáticas, el punto 4 en geometría y el punto 5 en estadística.				

OBJETIVOS:
*Reconocer e identificar el concepto de decena.
*Conocer los ordinales del 1º al 10º.
*Organizar los números enteros en la recta numérica.
*Contribuir al desarrollo del pensamiento espacial y geométrico.
*Introducir a los niños a la organización de datos.

LA DECENA



1. Colorea una decena de cada tipo de animales



NÚMEROS ORDINALES

Utilizamos los números para contar y ordenar. Según contemos u ordenemos, estos mismos números se denominan cardinales u ordinales. Los números ordinales son aquellos que expresan un orden. Primero, segundo, tercero, cuarto, quinto… hasta el décimo.

2. Marca el lugar según los números ordinales

AVANZAMOS EN LA SERIE

3. Recuerda y completa la línea o recta numérica hasta el número 20, escribiendo los números que faltan.

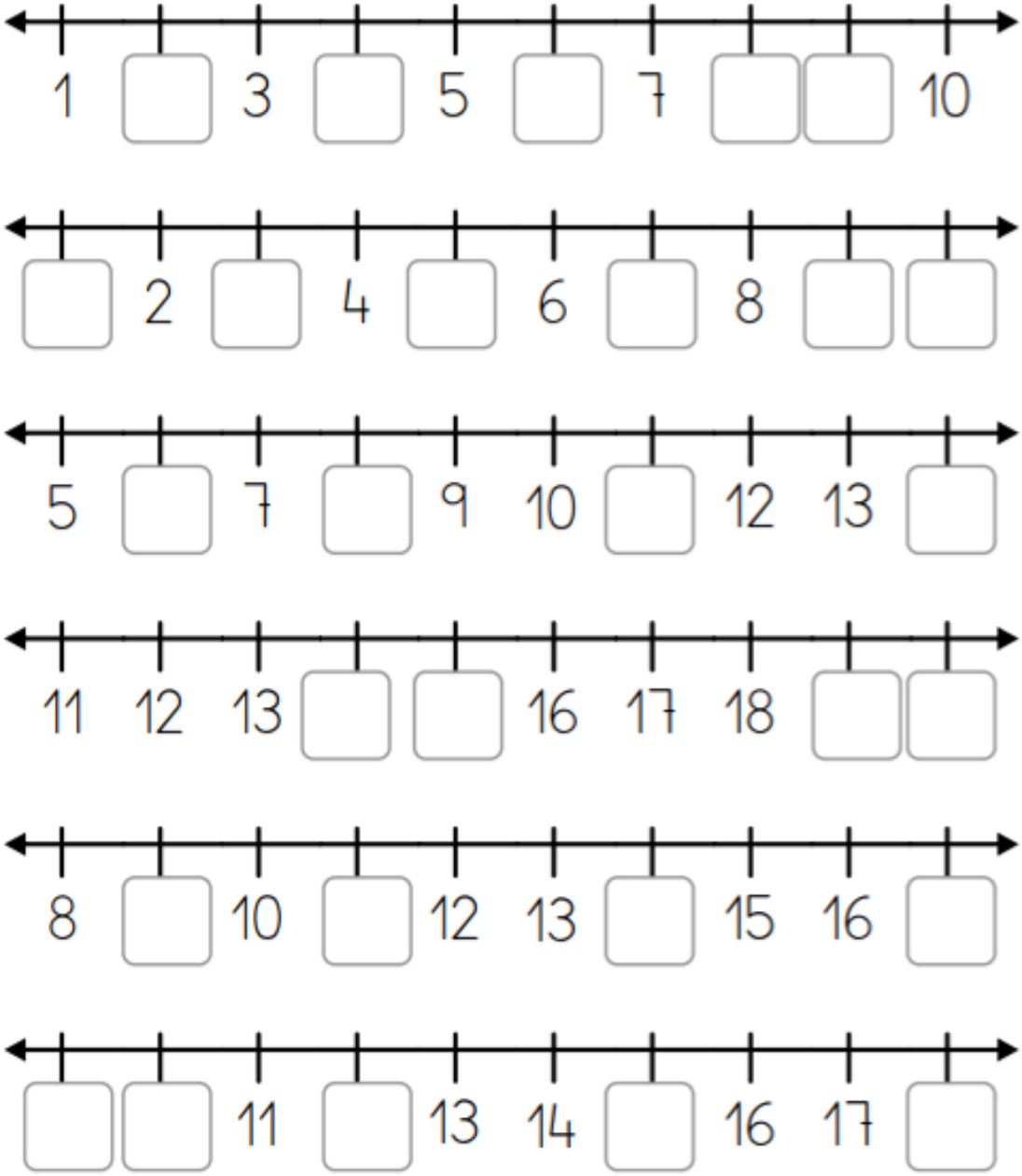

NOCIONES ESPACIALES BÁSICAS

4. ¿Cuál de los dos niños está a la derecha de Ana? Márcalo con una x

Dibuja una pelota dentro de la caja y un auto fuera de ella.

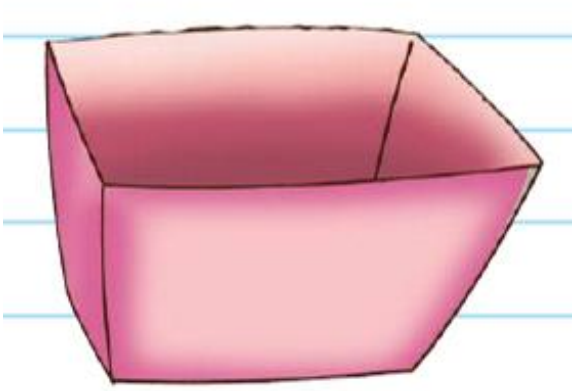

Pinta el niño que está más cerca del tobogán y el que está más lejos.

GRÁFICAS ESTADÍSTICAS

Mira el pictograma y responde las preguntas relacionadas con los niños del curso 2B.

- ¿A cuántos niños les gusta el atletismo? _____
- ¿A cuántos niños les gusta el baloncesto? _____
- ¿Cuál es el deporte más popular (el que más le gusta a los niños)? _____