INSTITUCIÓN EDUCATIVA FEDERICO SIERRA ARANGO
Resoluciones Dptales. 15814 de 30/10/2002 - 9495 de 3/12/2001
NIT: 811039779-1 DANE: 105088001750
Bello - Antioquia

Periodo	**3**	**Semanas 7 - 8**	**Fecha**	**MES**	**AGOSTO**	**DÍA**	**17-27**	**AÑO**	**2021**
Educador:	**Lila Milanés, Any Serna, Claudia Valderrama, Gladys Álvarez**			**Área: MATEMATICAS**					
Grado:	**2**	**OBSERVACIONES:** **PROYECTO: Leer todo el taller antes de elaborarlo.** **Copia en el cuaderno la base conceptual correspondiente y realiza las actividades**							

COMPETENCIA: Practicar y aprender las tablas de multiplicar.

Base conceptual 1. La tabla del 5

Actividad -1

Colorea la opción correcta:

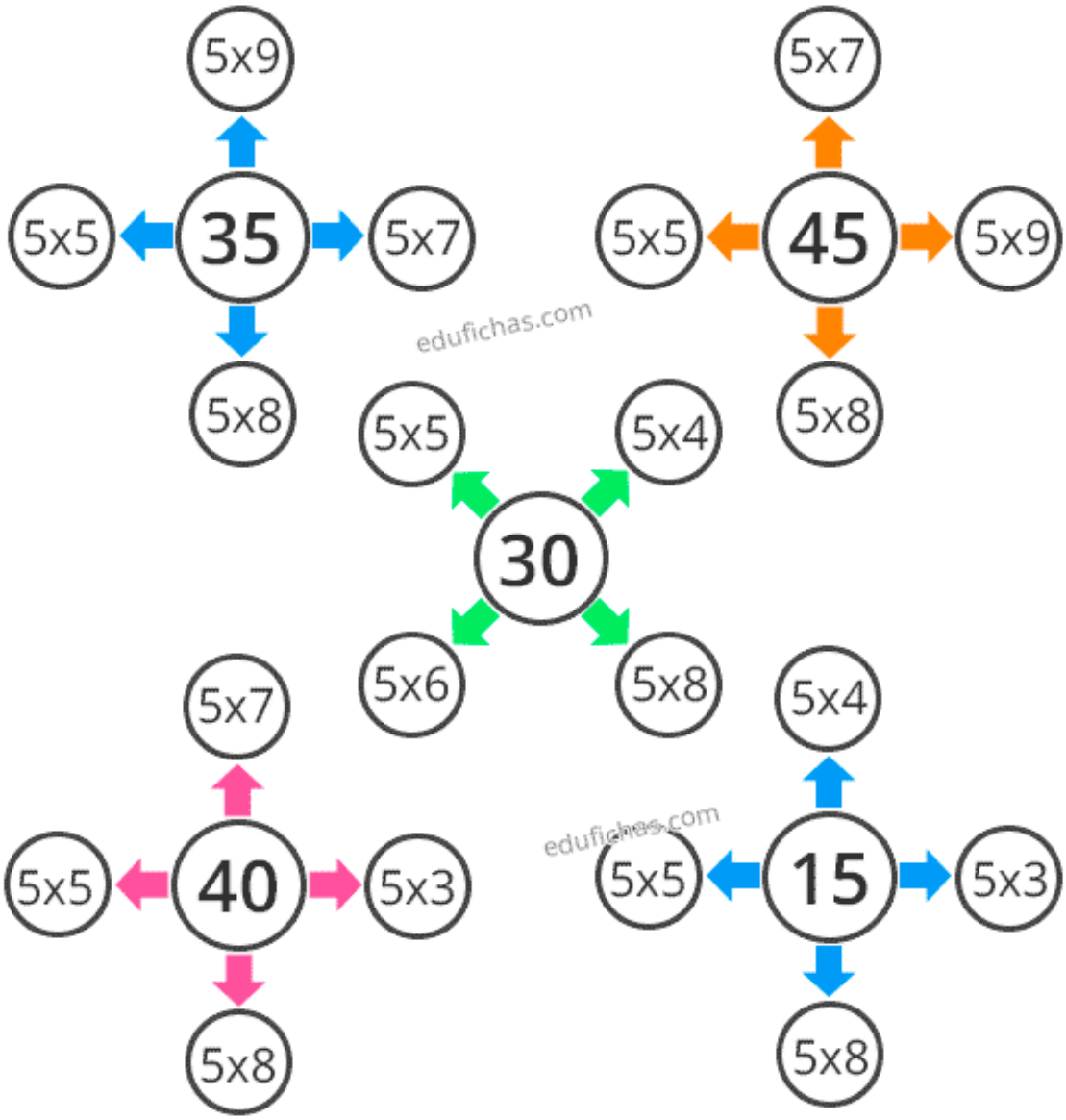

Actividad -2



Actividad -3

Colorea los helados de los resultados de la tabla del 5.

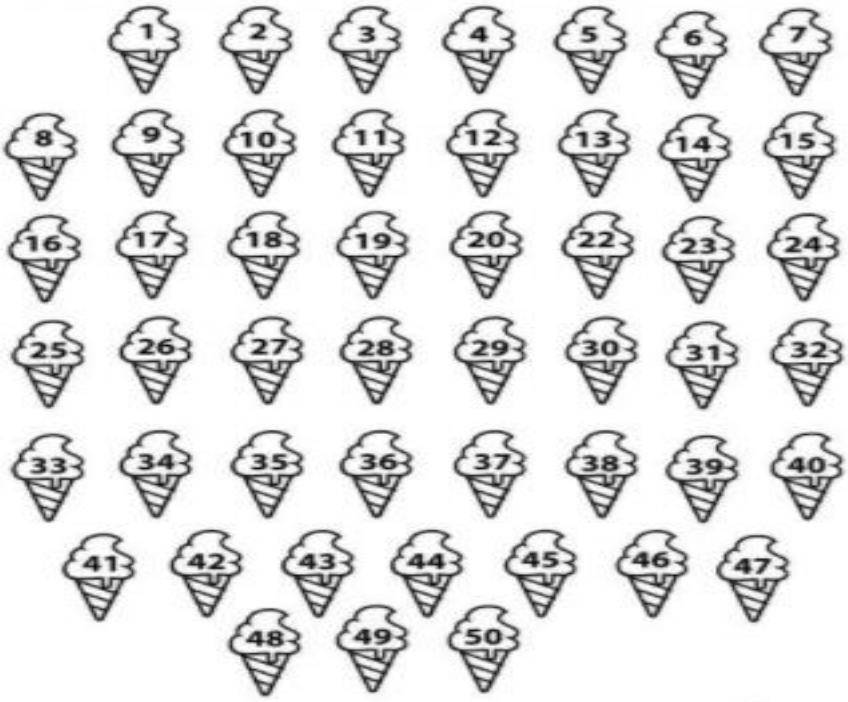

Actividad-4

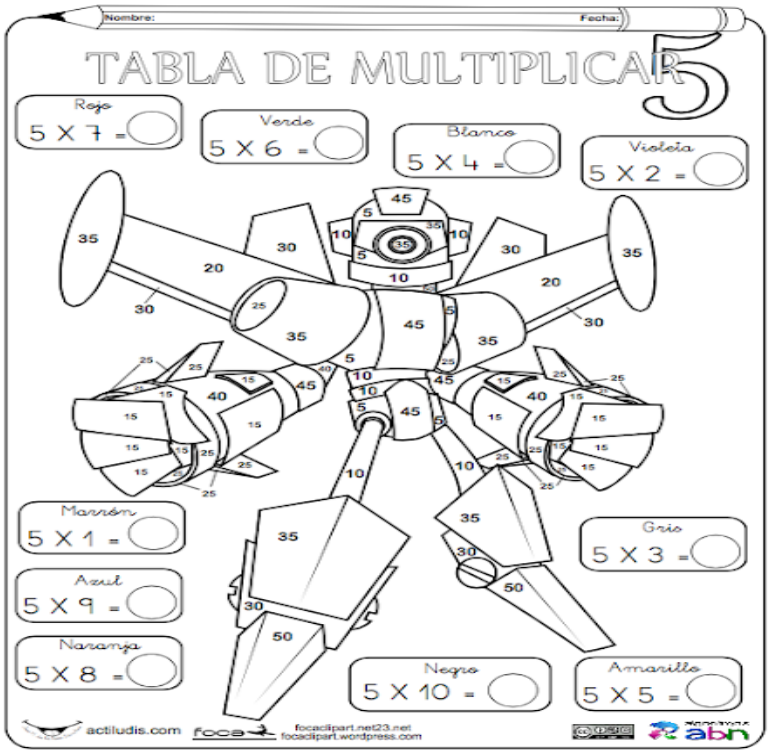

Actividad-5

Tabla del 5

Resuelve las siguientes multiplicaciones:

7 x 5	8 x 5	1 x 5	3 x 5
5 x 5	9 x 5	2 x 5	10 x 5
12 x 5	11 x 5	6 x 5	4 x 5

edufichas.com

BASE CONCEPTUAL 2

La tabla del 4



ACTIVIDAD -1

Escribe el resultado:

6 x 0=

6 X 1=

6 X 2=

6 X 3=

6 X 4=

6 X 5=

6 X 6=

6 X 7=

6 X 8=

6 X 9=

6 X 10=

ACTIVIDAD – 2

Ahora completa:

6 x = 30.	6 x = 0.	6 x =24.
6 x = 60.	6 x =42.	6 x = 54.
6 x = 6.	6 x =18.	6 x = 12.
6 x = 36.		

ACTIVIDAD – 3

Continúa la serie:

12	18					48
24	30					60
0	6					36
18	24					54

<

ACTIVIDAD – 4

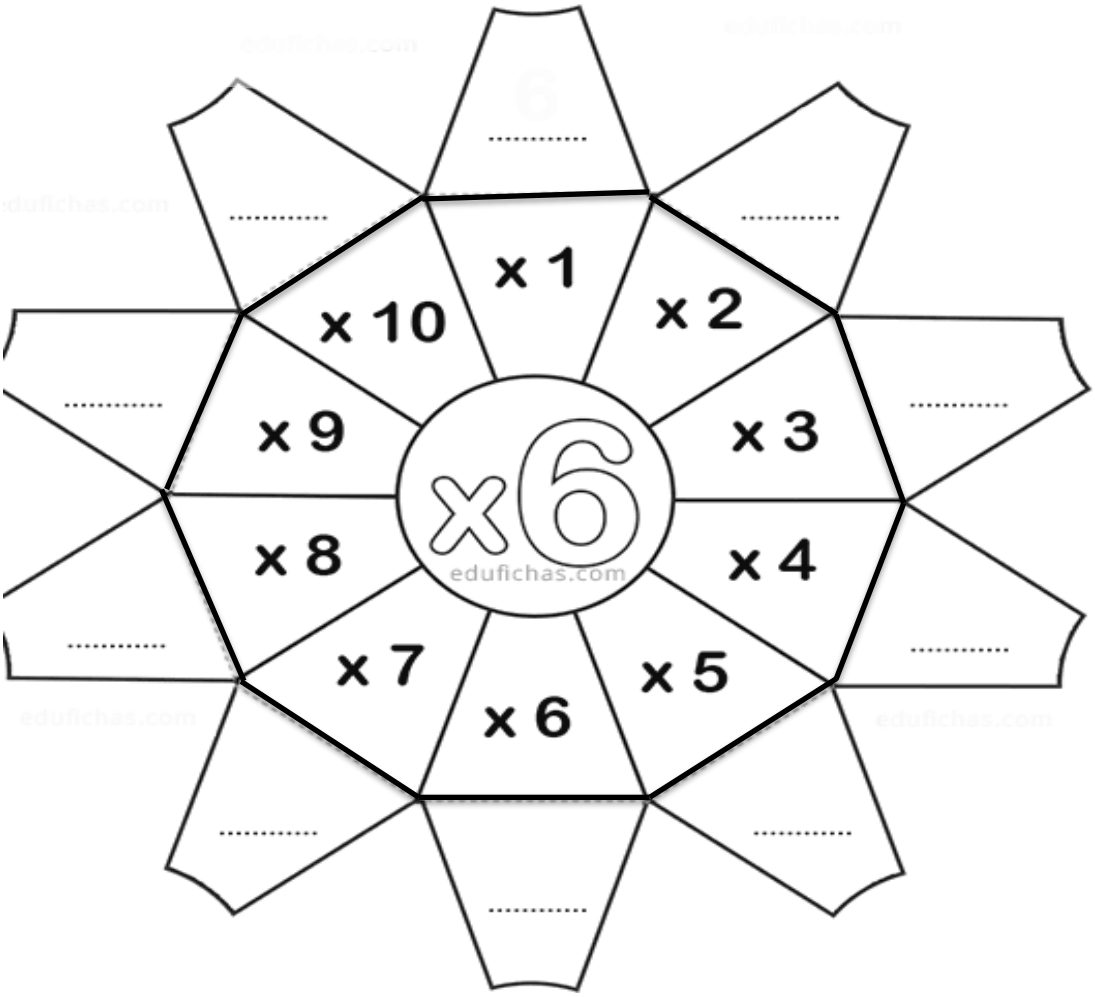

ACTIVIDAD -5

6	9	2	3
x 6	x 6	x 6	x 6
11	8	1	10
x 6	x 6	x 6	x 6
7	5	12	4
x 6	x 6	x 6	x 6

edufichas.com