INSTITUCIÓN EDUCATIVA FEDERICO SIERRA ARANGO
Resoluciones Dptales. 15814 de 30/10/2002 - 9495 de 3/12/2001
NIT: 811039779-1 DANE: 105088001750
Bello - Antioquia

Periodo	**3**	**Semanas 9**	**Fecha**	**MES**	**AGOSTO**	**DÍA**		**AÑO**	**2021**
Educador:	**Lila Milanés, Any Serna, Leidy Pedraza, Gladys Álvarez**		**Área: MATEMATICAS**						
Grado:	**2**	**OBSERVACIONES:** **PROYECTO: Leer todo el taller antes de elaborarlo.** **Copia en el cuaderno la base conceptual correspondiente y realiza las actividades**							

COMPETENCIA: Practicar y aprender las tablas de multiplicar.

Base conceptual 1. La tabla del 7

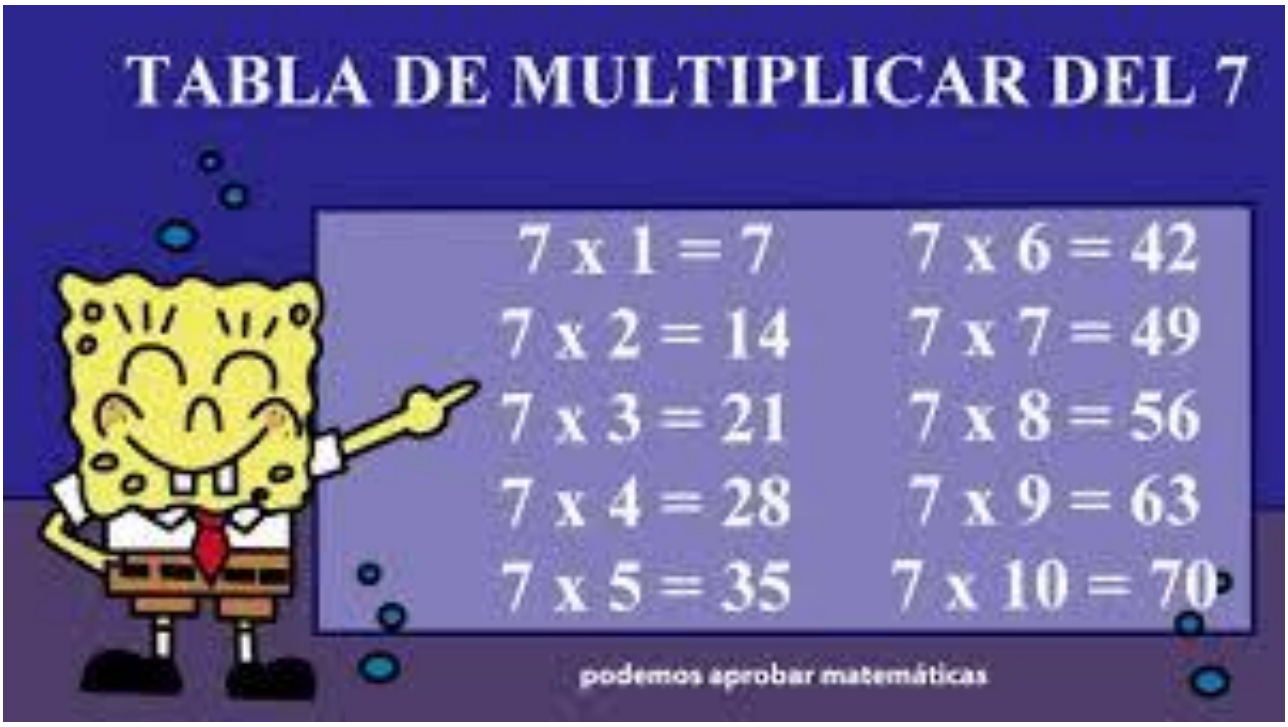

Ejercicio 1

Nombre: ..... Fecha: ..... Curso: .....

Tabla del 7

edufichas

Colorea el resultado correcto:

7 x 5		
37	35	36

7 x 8		
56	66	54

edufichas.com

7 x 7		
49	59	57

7 x 3		
23	43	21

7 x 2		
14	18	16

edufichas.com

7 x 9		
63	59	71

www.edufichas.com

Ejercicio 2: COLOREA LA FIGURA DE ACUERDO CON LAS INSTRUCCIONES

Tabla del 7

Colorea el dibujo según la clave de color:

7 x 1 = azul
7 x 2 = rosa
7 x 3 = verde
7 x 4 = amarillo
7 x 5 = azul marino
7 x 6 = naranja
7 x 7 = rojo
7 x 8 = blanco
7 x 9 = marrón

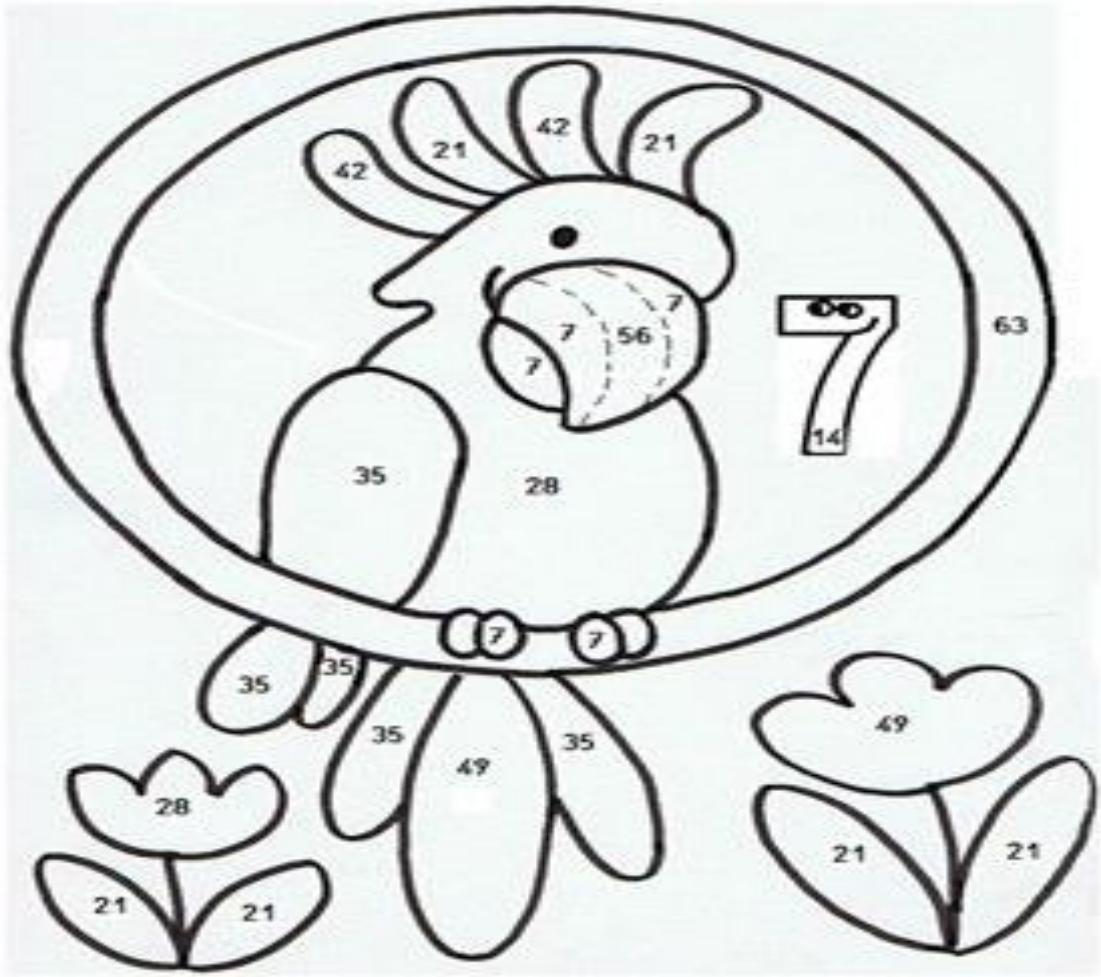

Ejercicio 3

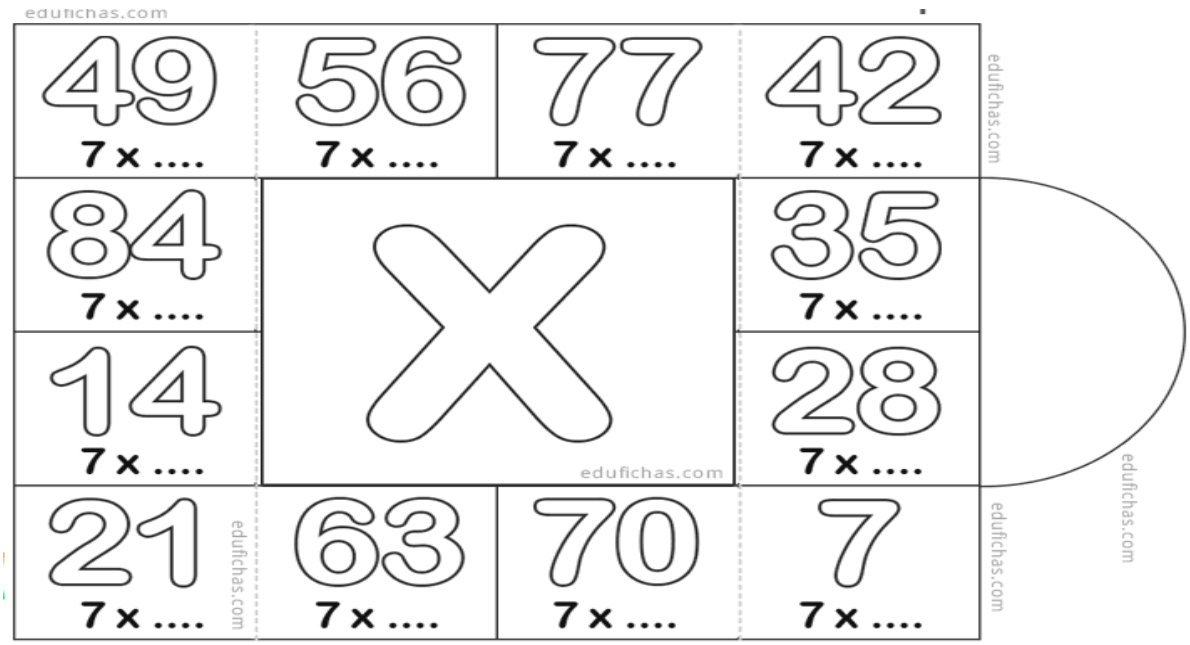

Ejercicio 4

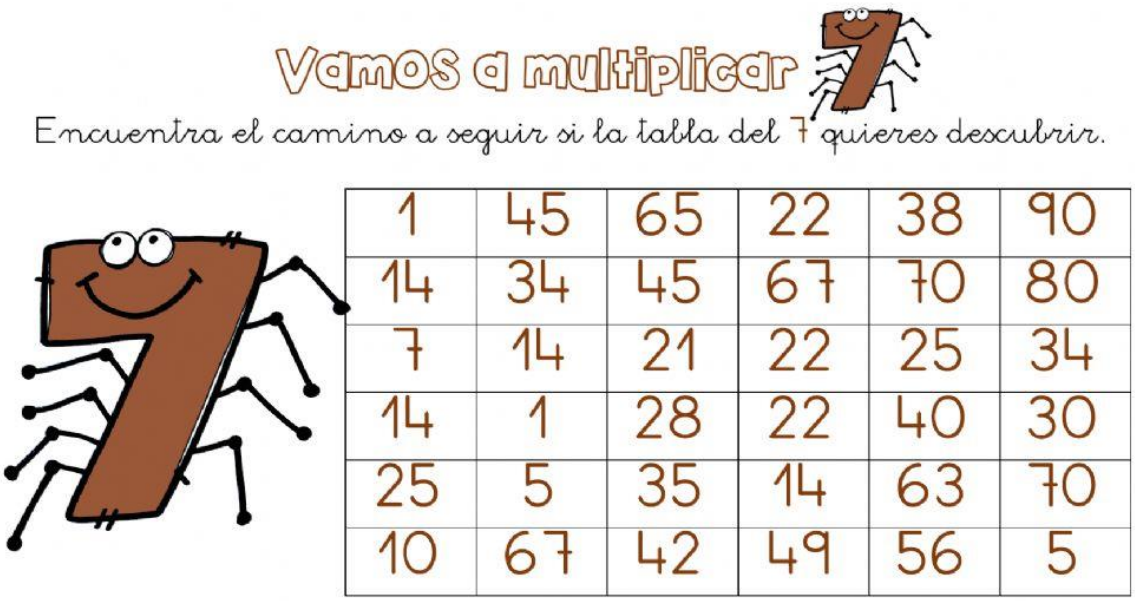

Ejercicio 5

9.- En un jardín hay 7 tulipanes. ¿Cuántos tulipanes hay en 2 jardines?

___ x ___ = _____

Hay _____ tulipanes.