INSTITUCIÓN EDUCATIVA FEDERICO SIERRA ARANGO
Resoluciones Dptales. 15814 de 30/10/2002 - 9495 de 3/12/2001
NIT: 811039779-1 DANE: 105088001750
Bello - Antioquia

GUÍA DIDÁCTICA			ASIGNATURAS: MATEMÁTICAS		
PERIODO	2	Semanas 8-9	FECHA: Del 24 de mayo al 4 de junio	AÑO	2021
EDUCADOR	Sor Eugenia Pineda, Paula Rico, María Teresa Rúa, Kelly Dayana Bohórquez		Fecha de entrega: 4 de junio		
GRADO:	1°	GRUPO: 01, 02, 03 y 04	Nombre del estudiante:		
OBSERVACIONES	Esta actividad la debes desarrollar en el cuaderno #2. Una vez realizada, debes cargar la evidencia a través de la plataforma Classroom. Los puntos 1 al 5 serán calificados en matemáticas, los puntos 6 y 7 en geometría y el punto 8 en estadística.				

OBJETIVOS:
* Seguir la serie de números.
* Resolver sumas y restas.
* Desarrollar el pensamiento espacial y geométrico.
* Interpretar gráficos.

LA FAMILIA DEL OCHENTA

1. Mira con atención y completa con los resultados.

80+1	81
80+2	
80+3	
80+4	
80+5	
80+6	
80+7	
80+8	
80+9	

A PENSAR CON NÚMEROS

2. Lee las preguntas y pintael número correcto.

LLEGAMOS AL NOVENTA

3. Mira con atención y completa con los resultados.

90+1	91
90+2	
90+3	
90+4	
90+5	
90+6	
90+7	
90+8	
90+9	

4. Mira con atención y escribe qué números se esconden detrás de los botones.

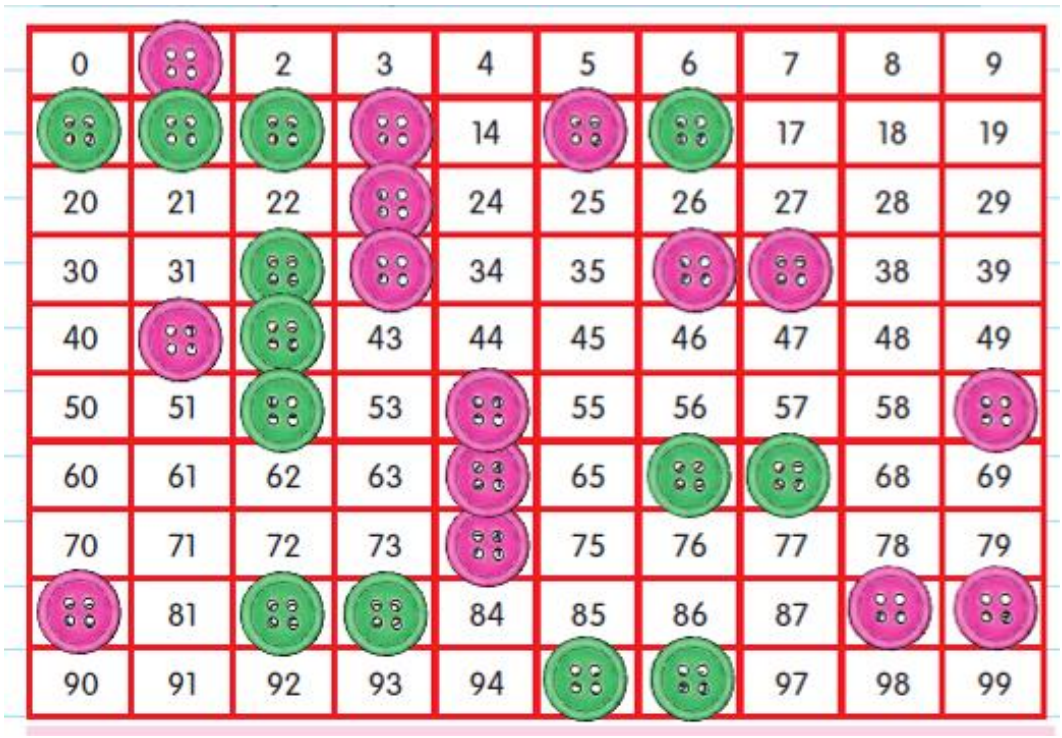

RESTAS SIN LLEVAR, CON NÚMEROS DE UNA O DE DOS CIFRAS

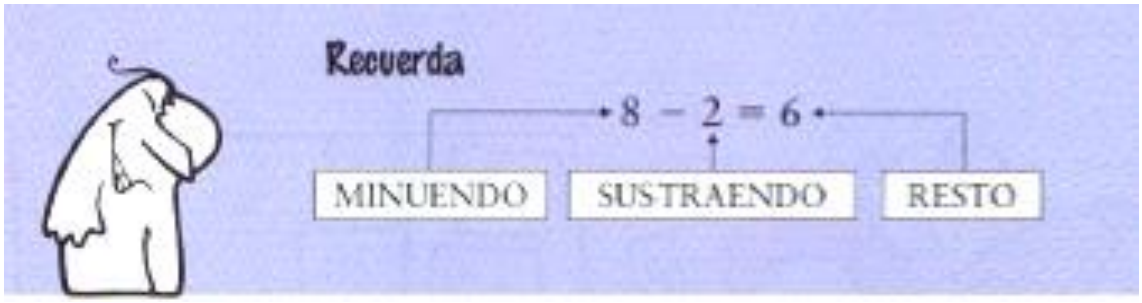

5. Resuelve las operaciones y ubica los términos de las restas que encuentres.



UNA SOPA GEOMÉTRICA

6. Busca, en esta sopa de letras, los nombres de los siguientes cuerpos geométricos: cono, esfera, cilindro, cubo.

E	S	F	E	R	A	B	O	C	D	C
P	R	I	S	M	A	U	N	O	T	U
P	I	R	A	M	I	D	E	N	R	B
C	I	L	I	N	D	R	O	O	S	O

¿CUÁL ES EL OBJETO?

7. Descúbrelo y escribe su nombre.

- Tiene forma de cono, es el
- Tiene forma de esfera, es la
- Tiene forma de cilindro, es el
- Tiene forma de cubo, es el

8. La gráfica de barras muestra los alimentos que desayunaron los niños de 2B una mañana.

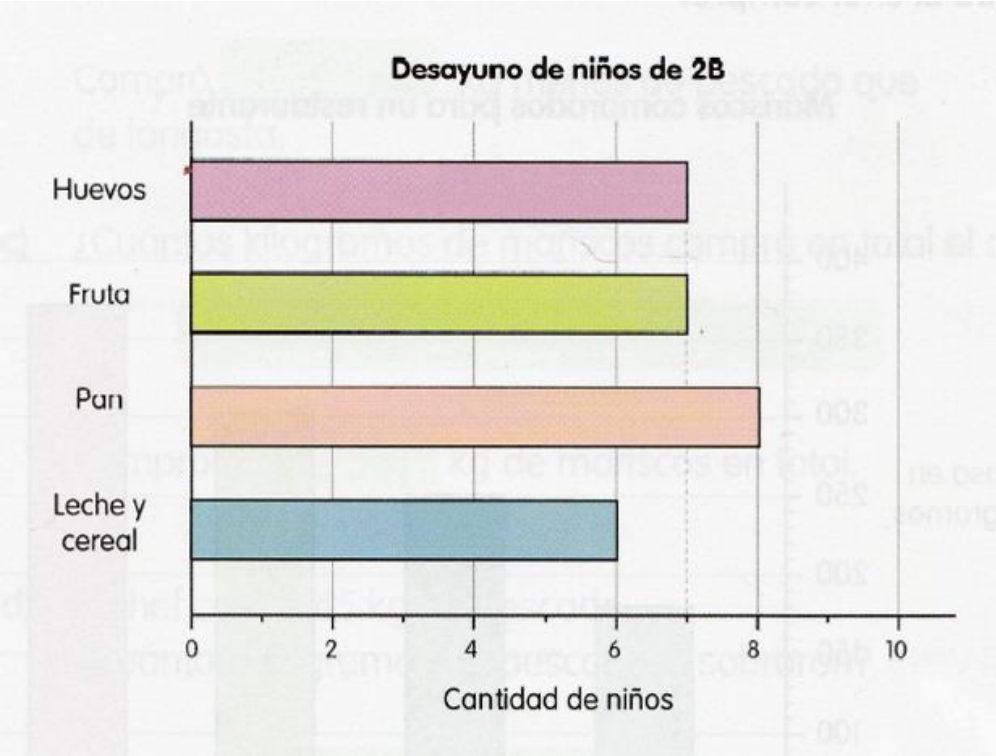

a) El alimento más popular de esa mañana fue _____.

b) La misma cantidad de niños comieron _____ y _____.

c) _____ niños comieron leche y cereal.

d) Hay _____ niños en el salón 2B.