INSTITUCIÓN EDUCATIVA FEDERICO SIERRA ARANGO
Resoluciones Dptales. 15814 de 30/10/2002 - 9495 de 3/12/2001
NIT: 811039779-1 DANE: 105088001750
Bello - Antioquia

GUÍA DIDÁCTICA			ASIGNATURAS: MATEMÁTICAS		
PERIODO	2	Semanas 3 y 4	FECHA: Del 19 al 30 de abril	AÑO	2021
EDUCADOR		Sor Eugenia Pineda, Paula Rico, María Teresa Rúa, Kelly Dayana Bohórquez	Fecha de entrega: abril 30		
GRADO:	1°	GRUPO: 01, 02, 03 y 04	Nombre del estudiante:		
OBSERVACIONES		Esta actividad la debes desarrollar en el cuaderno #2. Una vez realizada, debes cargar la evidencia a través de la plataforma Classroom. Los puntos del 1 al 5 serán calificados en matemáticas, los puntos 6 y 7 en geometría y el punto 8 en estadística.			

OBJETIVOS:

*Reconocer los usos y las funciones de los números en la vida diaria.
* Representar formas bidimensionales.
*Interpretar representaciones pictóricas y diagramas.

LA DECENA DEL CUARENTA

1. Completa las filas del castillo de números

	1	2	3	4	5	6	7	8	9
10									
20									
30									
40									
50									

2. Encierra las respuestas correctas

¿CUÁL ES EL PAQUETE DE GALLETITAS QUE TIENE EL PRECIO MAYOR?

¿CUÁL ES EL JUGO QUE TIENE EL PRECIO MENOR?

¿CUÁL PUEDO COMPRAR CON ESTOS BILLETES?

3. Calcula cuántos puntos suman estas cartas

50 + 3 = 53
CINCUENTA Y TRES

..... + ... = ...

.....

..... + ... = ...

.....

..... + ... = ...

.....

4. Coloca los sumandos y realiza las sumas

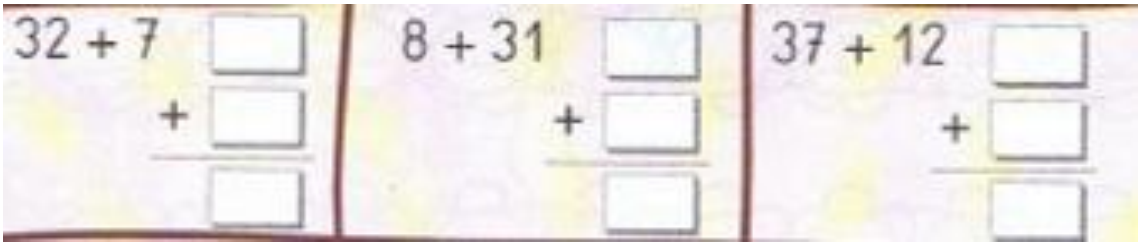

5. Piensa y escribe qué signo falta en cada cálculo

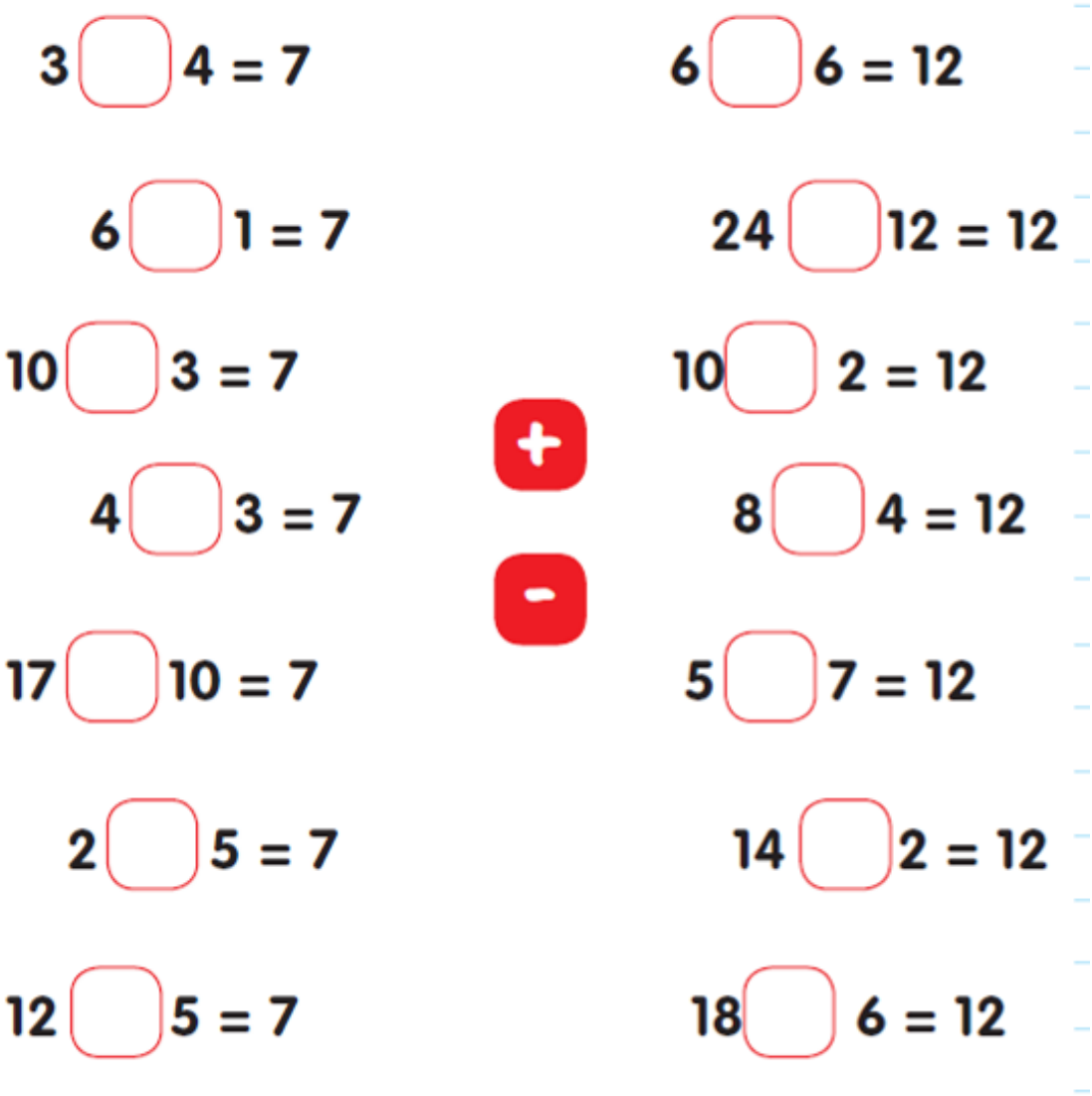

6. Cuenta y escribe cuántas de estas figuras se usaron para armar el siguiente dibujo.

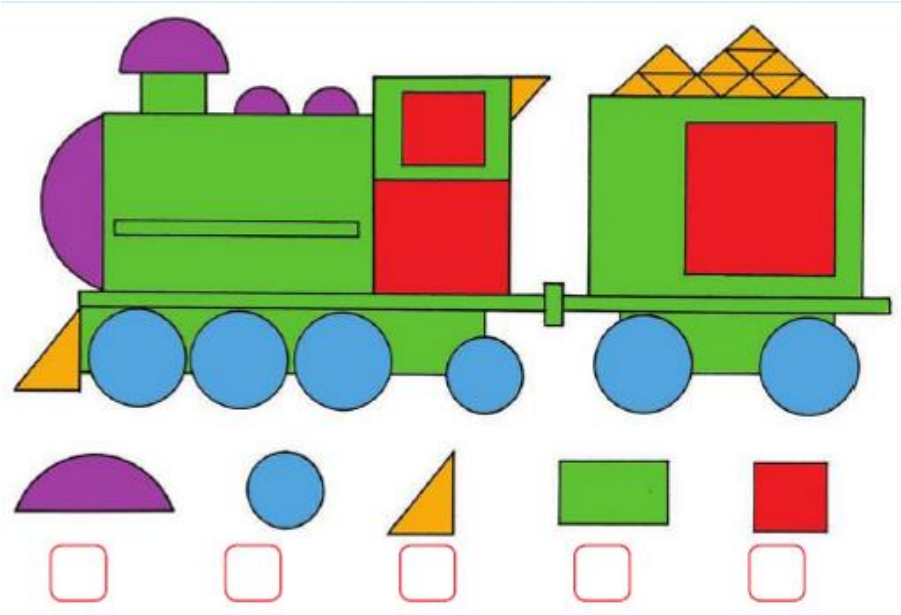

7. Realiza un dibujo usando solo figuras geométricas.

8. Como bienvenida al año escolar se les va a brindar a los alumnos de 1A un helado. Se les pide que informen sobre cuáles son los sabores de su preferencia. Los niños con la ayuda de la profesora hacen una consulta y presentan el siguiente gráfico con los resultados obtenidos:

Escribe una frase sencilla para responder las siguientes preguntas:

- ¿cuántos niños prefieren el helado de sabor de fresa?
- ¿cuántos de uva?
- ¿cuántos helados se deben comprar en total?
- ¿cuál es el sabor más escogido por los niños del curso 1A?