INSTITUCIÓN EDUCATIVA FEDERICO SIERRA AR
Resoluciones Dptales. 15814 de 30/10/2002 - 9495 de 3/12/
NIT: 811039779-1 DANE: 105088001750
Bello - Antioquia

GUIA DE APRENDIZAJE NUMERO CINCO GRADO CUARTO.

MAC: MATEMATICAS APLICADAS A LA COTIDIANIDAD.

AREA: GEOMETRIA	**SEMANA 9**
PROPOSITO: Identifica peso, masa y volumen	
FECHAS AÑO: Del 30 de agosto al 3 de septiembre 2021	**PERIODO: TRES GRADO:401-402-403-404**
RESPONSABLES: CLAUDIA ELENA VALDERRAMA, ARNORIS GOMEZ, MARLENY JIMENEZ.	
FUENTE TEORICA: Libros, pías, DBA, estándar, internet.	
OBSERVACIONES: La guía debe ser realizada por el estudiante con letra legible y ortografía. **Entrega puntual en las fechas asignadas.** **Buena presentación del trabajo.** **Seguir las instrucciones de la guía.** **Realizar en sus cuadernos, las actividades y luego tomar foto legible como evidencia y enviar las actividades por classroom.** **Alguna inquietud puede comunicarse por los correos de cada docente según la Jornada.**	
claudia.valderrama@virtual.edu.co	**GRUPO 4-01**
marleny.jimenez@virtual.edu.co	**GRUPO 4-02**
arnoris.gomez@virtual.edu.co	**GRUPO 4-03**
	GRUPO 4-04

Practico lo que aprendí en Geometría ←

MASA.

1.En una cesta hay 5 panes. Si cada pan pesa 300 g, ¿cuánto pesarán los 5 panes?

Observamos que el peso aproximado de 1 pan es _____ g.

Como la cesta tiene 5 panes, multiplicamos el peso aproximado de cada pan por el número de panes que contiene la cesta.



300 g x 5 = _____ g = _____ kg

Los 5 panes pesarán ____ kg, aproximadamente

2.Encierra en un círculo la medida más razonable.

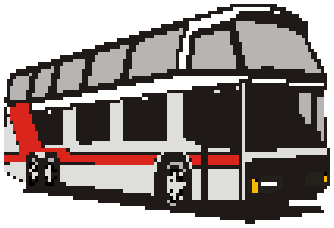

4000 kg o 5 t

30 g o 700 g



50k g o 50 g

PESO

3.Sí en un kilo hay 2 medios kilos ¿Cuántos medios kilos hay?

4KG_____medios kilos.
2kg_____medios kilos.
3kg_____medios kilos.
2kg y medio _____medios kilos.

4.Calcula el volumen de las siguientes figuras.

A)

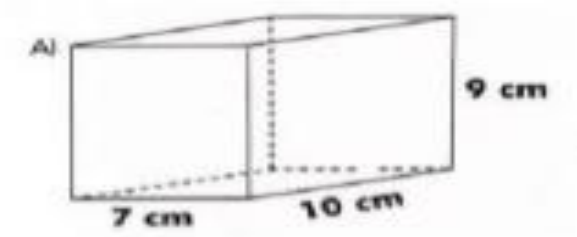
9 cm
7 cm
10 cm

B)

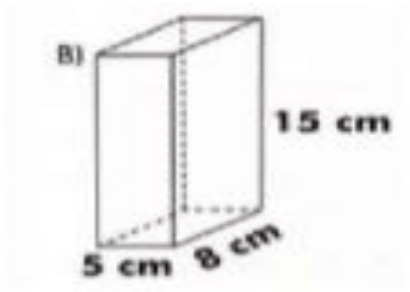
15 cm
5 cm
8 cm

C)

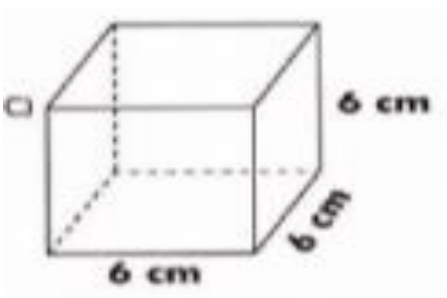
6 cm
6 cm
6 cm

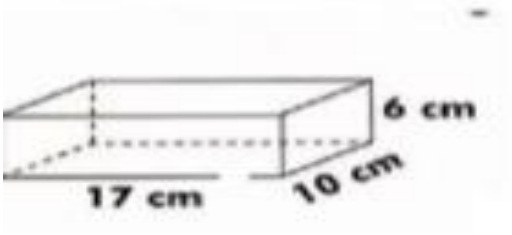
6 cm
17 cm
10 cm

F)

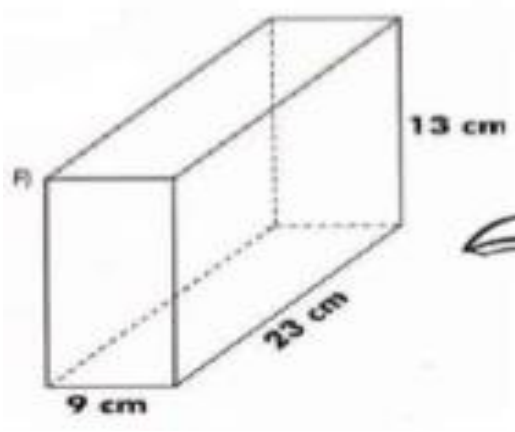
13 cm
23 cm
9 cm