INSTITUCIÓN EDUCATIVA FEDERICO SIERRA ARANGO
Resoluciones Dptales. 15814 de 30/10/2002 - 9495 de 3/12/2001
NIT: 811039779-1 DANE: 105088001750
Bello - Antioquia

GUIA DIDACTICA VIRTUAL CUATRO

Periodo	**3**	**Semanas 3 - 4**	**Fecha**	**MES**	**JULIO**	**DÍA**	**19-30**	**AÑO**	**2021**
Educador:	**Lila Milanés, Ana Lucia Serna, Claudia Valderrama, Gladys Álvarez**			**Áreas: SOCIALES, CIVICA Y URBANIDAD**					
Grado:	**2**	**OBSERVACIONES:** **Leer todo el taller antes de elaborarlo.** **Copia en el cuaderno la base conceptual correspondiente y realiza las actividades**							

COMPETENCIAS: LOS PUNTOS CARDINALES (CONTINUACION)

Actividad 1: En la gráfica de la derecha usa un color y sigue el rumbo o dirección propuestos, arrancando desde la flecha para hacer tu recorrido y guiándote con los puntos cardinales.

Actividad 2: Lee la ficha y sigue las indicaciones: Recuerda que los puntos cardinales son: Norte, Sur, Oriente (Este) y Occidente (Oeste).

Ubicándonos en una cuadrícula

- Completa la Rosa de los Vientos, escribiendo los puntos cardinales en las líneas.
- En la cuadrícula, dibuja donde correspondan los símbolos que representan los siguientes elementos:
  - Casa (B, 5)
  - Panadería (E, 1)
  - Hospital (F, 2)
  - Colegio (B, 4)
  - Iglesia (D, 6)
  - Plaza (F, 3)
  - Restaurante (A, 3)
  - Cancha fútbol (E, 4)

	A	B	C	D	E	F
1						
2						
3						
4						
5						
6						

Simbología

- Plaza
- Casa
- Panadería
- Colegio
- Hospital
- Cancha de fútbol
- Restaurante
- Iglesia

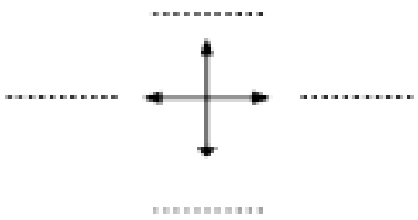

Completa, escribiendo el punto cardinal que corresponde:

- La cancha de fútbol se ubica al _____ del colegio.
- El hospital está al _____ de la plaza.
- El restaurante está al _____de la plaza.
- La casa se ubica al _____del colegio.

BASE CONCEPTUAL: 2

COMO REPRESENTAR LUGARES Y COSAS

Cualquier objeto o lugar puede ser representado de diversas formas, por ejemplo, haciendo un plano.

¿Sabes qué es un plano? Un **plano** es un dibujo que representa un lugar visto desde arriba. Ese lugar puede ser una habitación, una casa, un barrio. Se utiliza para situarnos y orientarnos correctamente. Dibuja en una hoja un plano de tu barrio. Ubica en él diferentes elementos como tu casa, la iglesia, tiendas, farmacias, edificios, plazas, parques, entre otros.

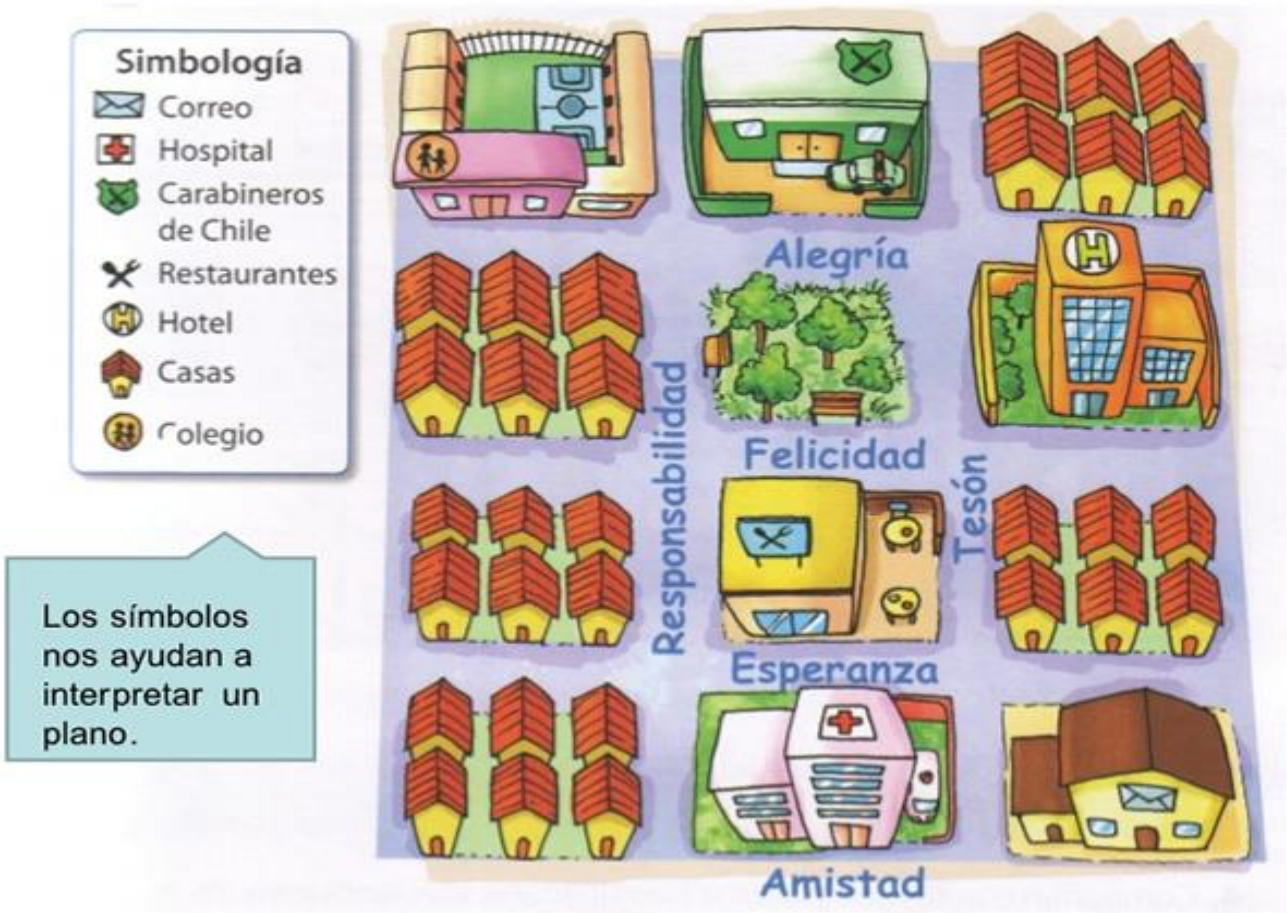

ACTIVIDAD 1: Dibuja en el plano los simbolos de los siguientes lugares





ACTIVIDAD 2: En el cuaderno dibuja el plano del salon de clases.

ACTIVIDAD 3: Observa muy bien el siguiente plano, luego responde las preguntas.

Aprendiendo a leer un plano

Observa, piensa y responde.

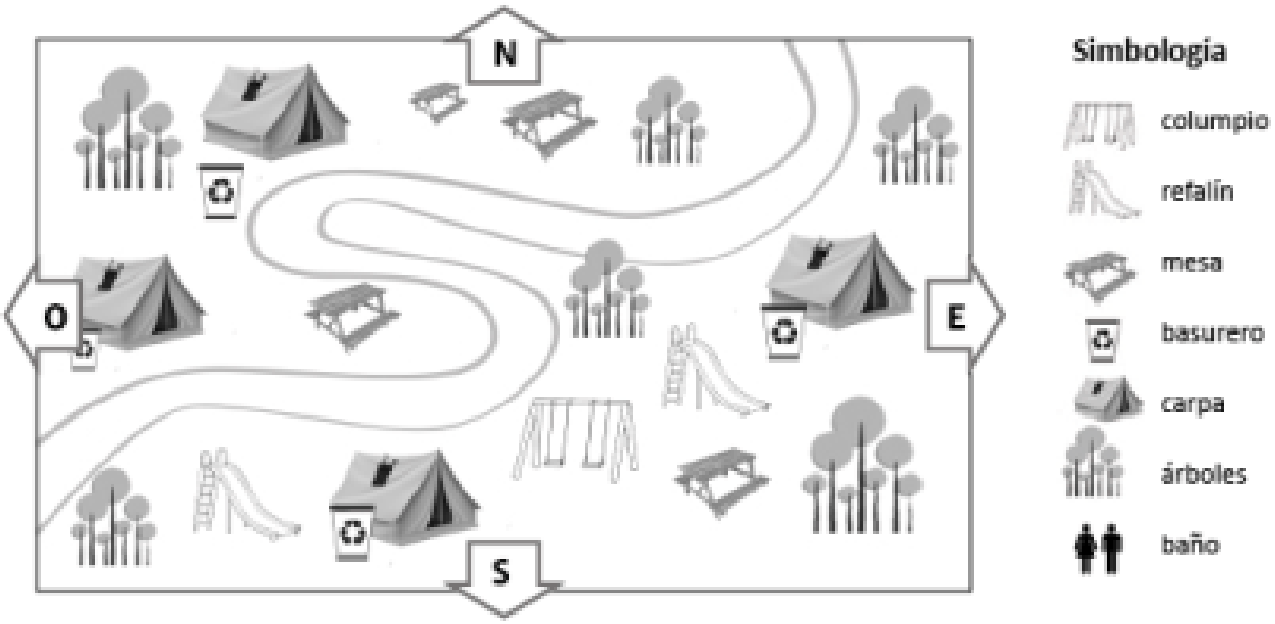

¿Qué símbolos se usan en este plano? _____

_____

En el camping, ¿cuántas familias independientes caben? _____

¿Hay una mesa para cada familia? _____

¿Qué hay al lado de cada carpa? _____ ¿Lo consideras importante? _____

¿Por qué? _____

Los juegos para niños, ¿están a la izquierda o a la derecha del camino?_____

A este camping le falta algo que es muy importante para todas las personas: _____

_____

Dibújalo tú.

¿Te gustaría ir a este camping? ¿Por qué? _____

_____

www.recursosdocentes.cl