INSTITUCIÓN EDUCATIVA FEDERICO SIERRA ARANGO
Resoluciones Dptales. 15814 de 30/10/2002 - 9495 de 3/12/2001
NIT: 811039779-1 DANE: 105088001750
Bello - Antioquia

Periodo	**3**	**Semanas 7 - 8**	**Fecha**	**MES**	**AGOSTO**	**DÍA**	**17 - 27**	**AÑO**	**2021**

Educador:	**Lila Milanés, Any Serna, Leidy Pedraza, Gladys Álvarez**	**Área: GEOMETRIA**
Grado:	**2**	**OBSERVACIONES:** **PROYECTO: Leer todo el taller antes de elaborarlo.** **Copia en el cuaderno la base conceptual correspondiente y realiza las actividades**

EVALUACION

MEDIDA DE CAPACIDADES 2

¿ Cuántas botellas de medio litro se necesitarán para envasar 4 litros de vino ?

Escribe el nombre de 3 cosas que se venden en un supermercado o en una tienda y que vengan en envases de menos de un litro.
Trata también de calcular la capacidad de cada uno.

1.- ..... más o menos tendrá ..... de litro.

2.- ..... más o menos tendrá ..... de litro.

Rodea en cada caso la medida que te parezca más adecuada:

El otro día me bebí 6 botellines de refresco de 1/2 litro cada uno.
¿ Cuántos litros de refresco me bebí ?

a. ¿Cuántos cm mide esta serpiente?

235	245	23	325
1. ☐	2. ☐	3. ☐	4. ☐

b. ¿Cuántos cm mide esta jirafa?

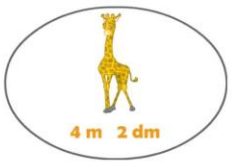

42	20	420	4,2
1. ☐	2. ☐	3. ☐	4. ☐

c. ¿Cuántos cm mide este pan?

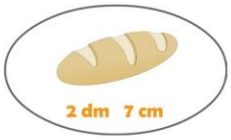

72	27	25	70
1. ☐	2. ☐	3. ☐	4. ☐

www.educapeques.com

Medidas de masa

El Kilo es la unidad principal de masa.
1Kg pesa 1000 g

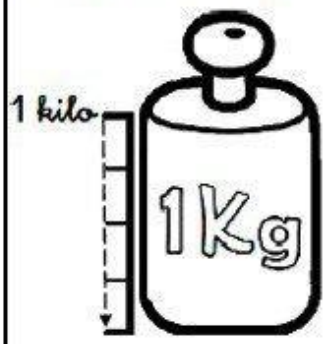

La mitad de un Kilo es medio Kilo que pesa 500 g

La cuarta parte de 1 kilo es 1 cuarto de Kilo que pesa 250 g

Contesta:

¿Cuántos medios Kilos contienen?:

1 Kg contiene ☐ medios kg .

3 kg contienen ☐ medios kg.

¿Cuántos cuartos de kilo hay en medio Kilo?

¿Cuántos cuartos de Kilo contienen 2 kg?

© webdelmaestro.com

Observa y completa.

Actividades

1- Mira con atención las balanzas y une con flecha según corresponde.

Pesa 1 kilo.	Pesa menos de 1 kilo	Pesa más de 1 kilo

2- Sigue el ejemplo y escribe abajo el peso en kilogramos de cada animal.



3- Si en un kilo hay 2 medios kilos, ¿cuántos medios kilos hay en?

4 kg= ..... medios kilos.
2 kg= ..... medios kilos.
3 kg= ..... medios kilos.
2 kg y medio= ..... medios kilos.

Medidas de capacidad

Una botella de aceite contiene 1 litro (1l).	Media botella de aceite contiene medio litro.	La cuarta parte de la botella contiene 1 cuarto de litro.

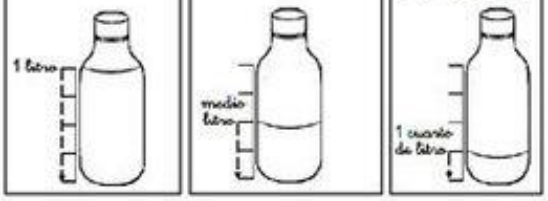

Colorea las medidas anteriores y después contesta:

¿Cuántos medios litros contienen?:

1 litro contiene ☐ medios litros.

2 litros contienen ☐ medios litros.

¿Cuántos cuartos de litro hay en medio litro?

¿Cuántos cuartos de litro contiene un litro?

Medidas de capacidad



Completa la tabla con los litros que hay en cada caso, como en el ejemplo:

Litros	Medios litros	Cuartos de litro
2 litros	2x2= 4 medios litros	2x4=8 cuartos de litro
4 litros		
5 litros		
7 litros		
9 litros		

© webdelmaestro.com