INSTITUCIÓN EDUCATIVA FEDERICO SIERRA ARANGO
Resoluciones Dptales. 15814 de 30/10/2002 - 9495 de 3/12/2001
NIT: 811039779-1 DANE: 105088001750
Bello - Antioquia

PROYECTO SEGUNDO

"Aprendo a convivir en tiempo de pandemia"

GUIA DIDACTICA VIRTUAL 4

Periodo	**2**	**Semanas 1-2**	**Fecha**	**MES**	**ABRIL**	**DÍA**	**5-16**	**AÑO**	**2021**
Educador:	**Lila Milanés, Ana Lucia Serna, Ruby Arenas, Gladys Álvarez**		**Áreas: GEOMETRIA**						
Grado:	**2**	**OBSERVACIONES:** **Leer todo el taller antes de elaborarlo.** **Copia en el cuaderno de matemáticas y realiza las actividades**							

COMPETENCIAS

- Resuleve problemas relacionados con el perimetro de las figuras geometricas

Base conceptual 1:

Perimetro: es la medida del contorno de una figura

Para calcualr el perimetro de una figura se suman las medidas de los lados

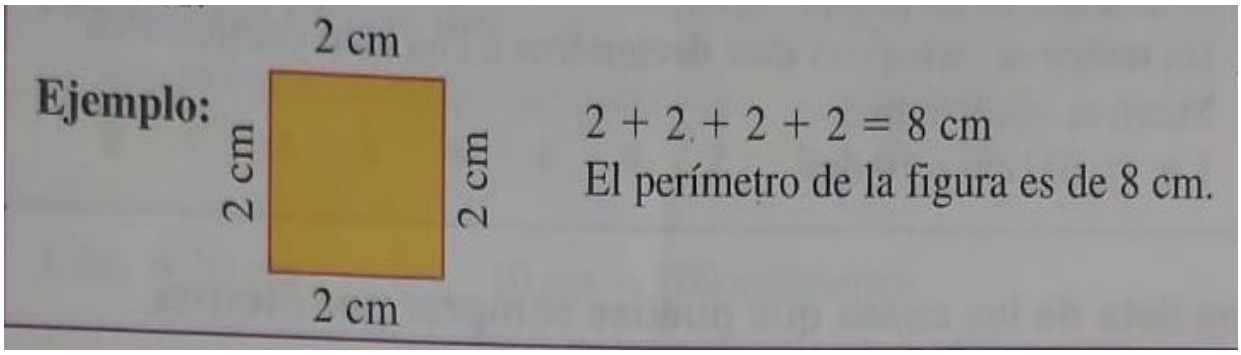

Actividad:

1 Retiñe con rojo el contorno de cada figura.

2 Calcula el perímetro.



☐ + ☐ + ☐ = ☐

El perímetro es de ☐ cm.

☐ + ☐ + ☐ + ☐ + ☐ = ☐

El perímetro es de ☐ cm.



☐ + ☐ + ☐ + ☐ = ☐

El perímetro es de ☐ cm.