INSTITUCIÓN EDUCATIVA FEDERICO SIERRA ARANGO
Resoluciones Dptales. 15814 de 30/10/2002 - 9495 de 3/12/2001
NIT: 811039779-1 DANE: 105088001750
Bello - Antioquia

Periodo	**4**	**Semanas 1-2**	**Fecha**	**MES**	**AGOSTO**	**DÍA**	**13-24**	**AÑO**	**2021**
Educador:	**Lila Milanés, Any Serna, Claudia Valderrama, Gladys Álvarez**			**Área: ESTADISTICA**					
Grado:	**2**	**OBSERVACIONES:** **PROYECTO: Leer todo el taller antes de elaborarlo.** **Copia en el cuaderno la base conceptual correspondiente y realiza las actividades**							

Pictogramas

Base conceptual 1

1. Calcula las frecuencias del pictograma:

COLOR	CANTIDAD	TOTAL
azul		
rojo		
amarillo		

Cada representa 6 carros

2. Colorea un ▭ por cada y completa el diagrama de barras según la tabla de frecuencias.



mascota	votos
Gato	4
Perro	3
Hámster	1
pez	2

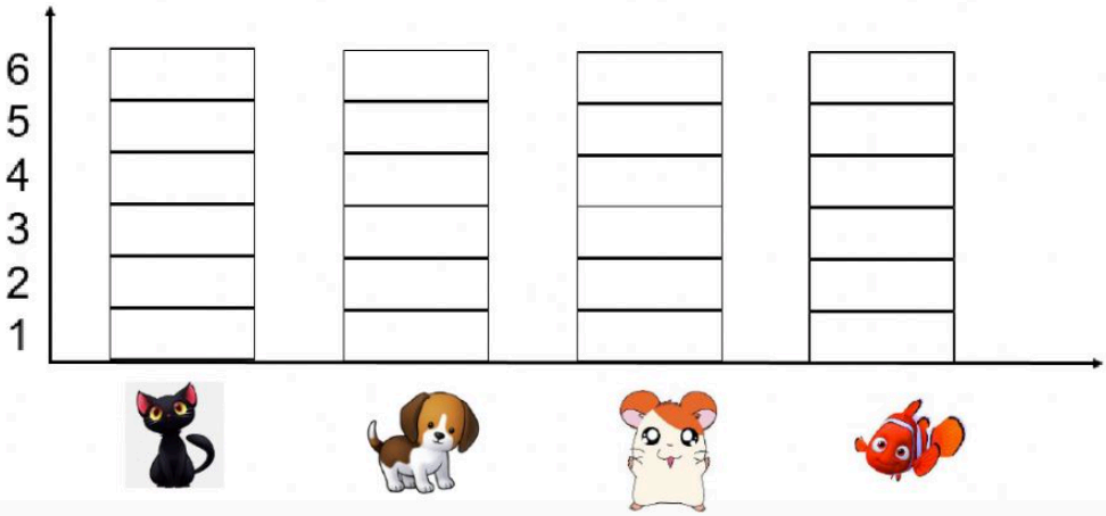

Base conceptual 2

Obtén datos de un pictograma.

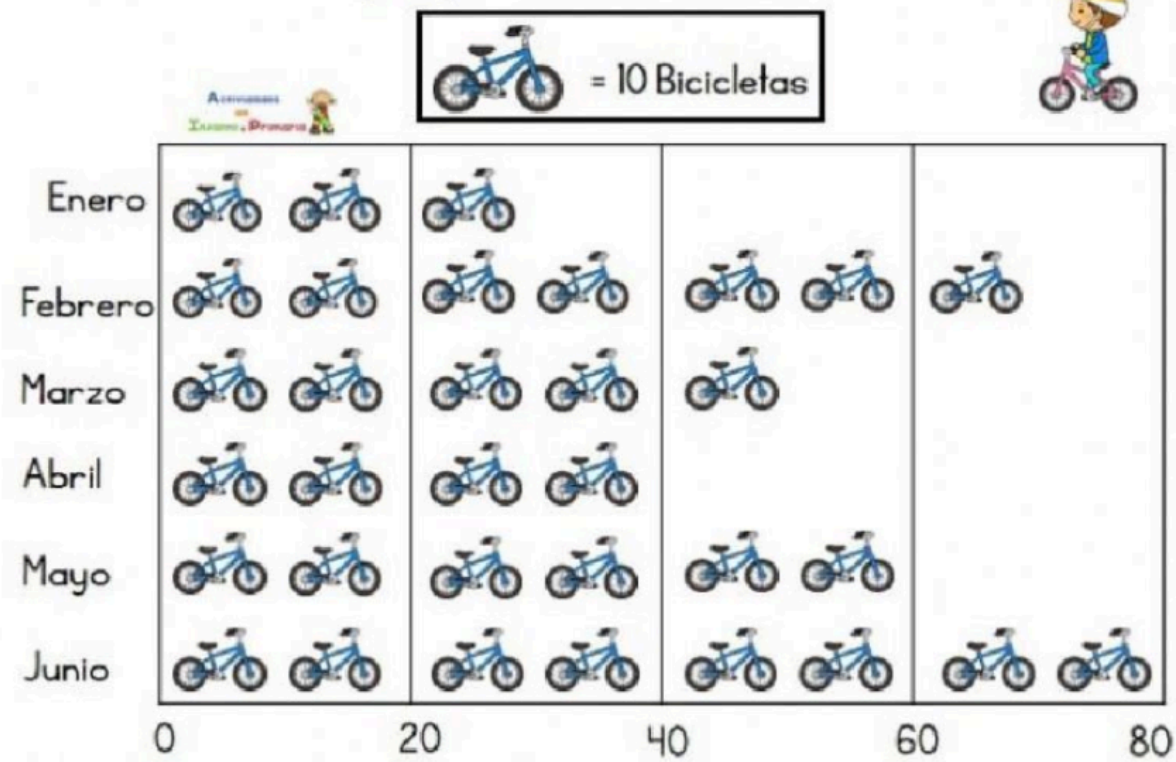

¿Cuántas bicicletas se han vendido cada mes?

enero febrero marzo abril mayo junio

¿Cuántas bicicletas se han vendido en total entre abril y mayo?

Se han vendido _____ bicicletas

¿Cuántas bicicletas se han vendido más en junio que en enero?

Se han vendido _____ bicicletas más