INSTITUCIÓN EDUCATIVA FEDERICO SIERRA ARANGO

Resoluciones Dptales. 15814 de 30/10/2002 - 9495 de 3/12/2001
NIT: 811039779-1 DANE: 105088001750
Bello – Antioquia

TALLER TRABAJO EN CASA TERCER PERIODO SEMANA 9
AREA: TODAS
LOGRO: Realiza las actividades de forma correcta
FECHAS: del 30 de agosto al 3 de septiembre
RESPONSABLES: Docentes del grado primero
OBSERVACIONES: **Fecha máxima de entrega SEPTIEMBRE 3**

Indicaciones:

- ✔ Para la realización de este taller necesitarás de la compañía de alguien que te guíe en las lecturas y en la realización de algunas actividades.
- ✔ Cada actividad esta nombrada con el día correspondiente, con la intención de que el trabajo se pueda hacer de a poco cada día

AGOSTO 30, LUNES

Matemáticas (Cuaderno#2)

1. Completa la siguiente tabla de equivalencias:

27 ☐	equivalen a	2 ☐ y 7 ☐
48 ☐	equivalen a	___ ☐ y ___ ☐
100 ☐	equivalen a	___ ☐
325 ☐	equivalen a	3 ☐ ___ ☐ y ___ ☐
478 ☐	equivalen a	___ ☐ ___ ☐ y ___ ☐

2. Responde:
   ¿Por cuántas tiras puedes cambiar 4 mayas? _____
   ¿Por cuántos cuadros puedes cambiar 15 tiras? _____

INSTITUCIÓN EDUCATIVA FEDERICO SIERRA ARANGO
Resoluciones Dptales. 15814 de 30/10/2002 - 9495 de 3/12/2001
NIT: 811039779-1 DANE: 105088001750
Bello – Antioquia

Áreas integradas (Cuaderno #3)

1. Observa la imagen y forma su nombre. Colorea en cada recuadro la sílaba correspondiente, hasta completar la palabra. Ejemplo

go	man
man	go

za	man	na
za	na	man
man	na	za

pa	ya	pa
ya	pa	pa
pa	pa	ya

vas	u
u	vas

hi	gos
gos	hi

pi	ña
ña	pi

ra	pe
pe	ra

2. Dibuja diferentes objetos que inicien con las sílabas subrayadas de las siguientes palabras:

<u>Man</u>zana		<u>Plá</u>tano	
<u>Pa</u>paya		<u>Man</u>go	

Durazno		Piña	

AGOSTO 31. Martes

Lengua Castellana (Cuaderno #1)

¿Te has preguntado?...

¿Qué pasaría sí combinamos diferentes sílabas?

Sí escribo las sílabas de una palabra en diferente orden, ¿qué ocurriría?

Has entendido que todas las palabras se dividen en sonidos llamados sílabas; ahora descubrirás que combinadas en un orden preciso producen diferentes palabras.

1. Escribe 10 palabras diferentes en tiras de papel, recorta cada palabra dividiéndola en sílabas, forma nuevas palabras con las sílabas recortadas como en el siguiente ejemplo:

	ri	Ma	sa	po
Mariposa	sa	po	ri	Ma
	Ma	sa	po	ri

2. Encierra con el mismo color, las palabras anteriores que tengan igual cantidad de sílabas
3. Lee la siguiente adivinanza

¿Qué es?_____

Tiene cuatro sílabas.
Inicia por "ge",
Termina con "na".
La tercera sílaba es "ti"
y sirve para refrescar.
La sílaba que falta es "la".

Matemáticas (Cuaderno#2)

1. ***1*** Observa y responde

El carro 1 recorre la pista de la izquierda, el carro 2 recorre la pista del centro y el carro 3 recorre la pista de la derecha.
Marca el carro que recorre la mayor distancia en una vuelta.

2. Resuelve las siguientes sumas y acomódalas en un cuadro de unidades, decenas y centenas como en el ejemplo:

C	D	U
5	1	3
	2	0
		6
5	3	9

513 + 20 + 6 = 539

300 + 26 + 3 =

100 + 45 + 2 =

400 + 62 + 5 =

220 + 33 + 4 =

651 + 10 + 8 =

SEPTIEMBRE 1 Miércoles

Áreas integradas (Cuaderno #3)

1. Une las partes de arriba con las de abajo para formar palabras escondidas. Observa los ejemplos y encuentra otras palabras que empiecen igual.

Ante	Anti	Des	Ex
virus	peinar	ayer	presidente

Anteayer	Antivirus	Despeinar	Expresidente
		Descubrir	
		Destapar	

2. ¡Forma otras palabras!

Extra Mini Super Pre Re Tele

Terrestre	falda	mercado	cocido	correr	visión

3. ¡Ahora, lo vas a hacer de otra manera! Une las partes de arriba con las de abajo para formar palabras escondidas. Encuentra otras palabras que terminen igual.

Pana	Come	Prohibi	Ingeni
Dor	dero	oso	ción

Doble línea <u>Cuaderno #5</u>

Realiza una plana de tu nombre completo

.

Matemáticas (Cuaderno#2)

1. Encierra en el círculo donde hay más
   - En 4 tiras o en 1 malla.
   - En 56 cuadrados o en 1 malla.
   - En 12 tiras o en 1 malla.

2. Completa la siguiente tabla de equivalencias

5 tiras y 8 cuadrados	equivalen a	58 cuadrados
12 tiras y 6 cuadrados	equivalen a	126 cuadrados
10 tiras y 1 cuadrado	equivalen a	____ cuadrados
11 tiras y 9 cuadrados	equivalen a	____ cuadrados
5 tiras y 13 cuadrados	equivalen a	____ cuadrados
3 cuadrados y 14 tiras	equivalen a	____ cuadrados
16 cuadrados y 1 tira	equivalen a	____ cuadrados

SEPTIEMBRE 2. Jueves
Lengua castellana (Cuaderno #1)

1. Escribe en orden alfabético una lista de 20 objetos que haya en tu casa

_____ _____
_____ _____
_____ _____
_____ _____
_____ _____
_____ _____
_____ _____
_____ _____
_____ _____
_____ _____

2. Escribe la función de 3 de los objetos anteriores-
3. Dibuja 5 objetos que consideres muy importantes dentro del hogar

Artística (Cuaderno #4)

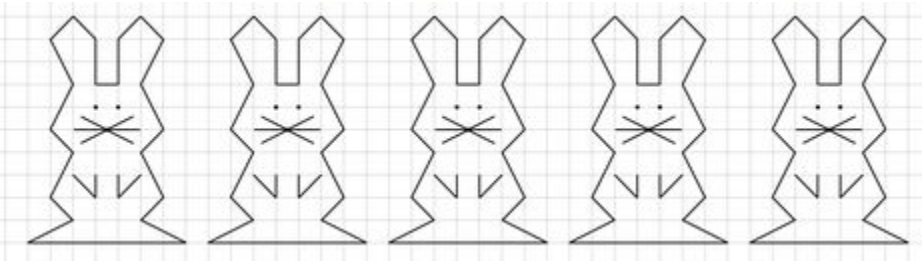

Matemáticas (Cuaderno#2)

1. Observa cada situación y dibuja lo que falta para 1solucionar cada problema.

2. Dibuja en los cuadros una actividad que hagas en la hora que indica cada reloj.

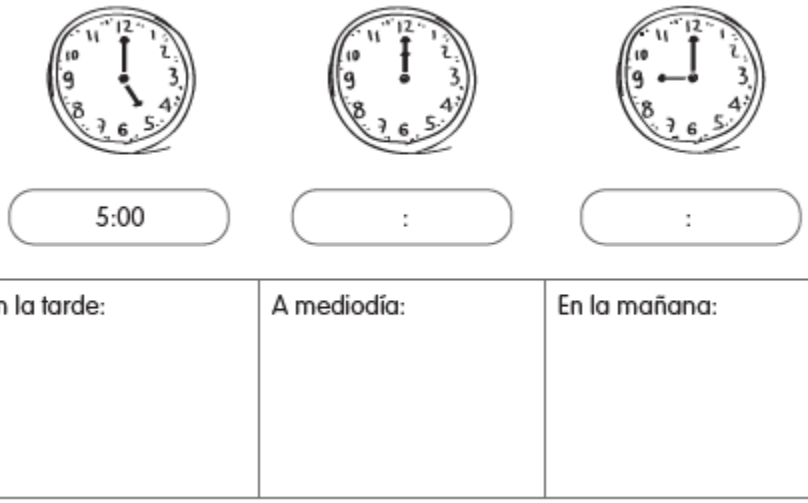

3. Dibuja en cada reloj la hora que corresponde a las acciones representadas en cada cuadro. Escribe el nombre de cada acción



SEPTIEMBRE 3. **Viernes**

Áreas integradas (Cuaderno #3)

1. Busca en la sopa de letras las siguientes palabras
   Manzana pera durazno habichuela guayaba
   Zanahoria lulo tomate mora cebolla

L	M	A	N	Z	A	N	A	L	S
C	H	N	I	A	T	U	P	E	D
E	J	C	O	L	O	V	E	S	U
B	A	D	L	E	M	A	R	I	R
O	M	R	G	U	A	Y	A	B	A
L	U	N	E	H	T	I	S	P	Z
L	E	D	F	C	E	G	H	U	N
A	M	E	K	I	R	L	U	L	O
T	O	Ñ	E	B	J	S	M	E	N
I	R	O	H	A	C	L	O	T	A
Z	A	N	A	H	O	R	I	A	S