# INSTITUCIÓN EDUCATIVA FEDERICO SIERRA AR

Resoluciones Dptales. 15814 de 30/10/2002 - 9495 de 3/12/
NIT: 811039779-1 DANE: 105088001750
Bello - Antioquia

## GUIA DE APRENDIZAJE NUMERO TRES GRADO TERCERO.
## MAC MATEMATICAS APLICADAS A LA COTIDIANIDAD.

| | | | |
|---|---|---|---|
| **ASIGNATURA: GEOMETRIA** | | | **SEMANA 5 Y 6** |
| **PROPÓSITOS: Construir y medir ángulos.** | | | |
| **FECHAS: Del 22 febrero al 5 de marzo** | **AÑO:2021** | **PERIODO: UNO** | **GRADO:301-302-303-304** |
| **RESPONSABLES: CLAUDIA ELENA VALDERRAMA Y ARNORIS GÓMEZ B.** | | | |
| **FUENTE TEORICA: Libros, pías, DBA, estándar, internet** | | | |

**OBSERVACIONES: La guía debe ser realizada por el estudiante con letra legible y ortografía.**
**Entrega puntual en las fechas asignadas.**
**Buena presentación del trabajo.**
**Seguir las instrucciones de la guía.**
**Participación activa en los encuentros virtuales, cumpliendo con las normas establecidas.**

**Realizar en sus cuadernos o en la guía, las actividades y luego tomar foto legible como evidencia y enviar las actividades por classroom.**
**Alguna inquietud puede comunicarse por los correos de cada docente según la Jornada.**

claudia.valderrama@virtual.edu.co **GRUPO 3-01**
**GRUPO 3-02**

arnoris.gomez@virtual.edu.co **GRUPO 3-03**
**GRUPO 3-04**

**Base conceptual**

- Construcción y medición de ángulos

## INTRODUCCIÓN

Esta guía te va a orientar para trabajar temas de GEOMETRIA

ANGULOS

Un ángulo es la abertura entre dos semirrectas de origen común.
Medir un ángulo es averiguar qué tan amplia es la abertura que forman sus lados.

Trabajarás actividades desde la asignatura de geometría alguna de las cuales desarrollarás en tu cuaderno.

***¿Qué voy a aprender?*** Para comenzar, vas a leer el concepto de ANGULOS a partir de allí repasarás algunos temas importantes, Luego, **explorarás el mundo de la geometría.**

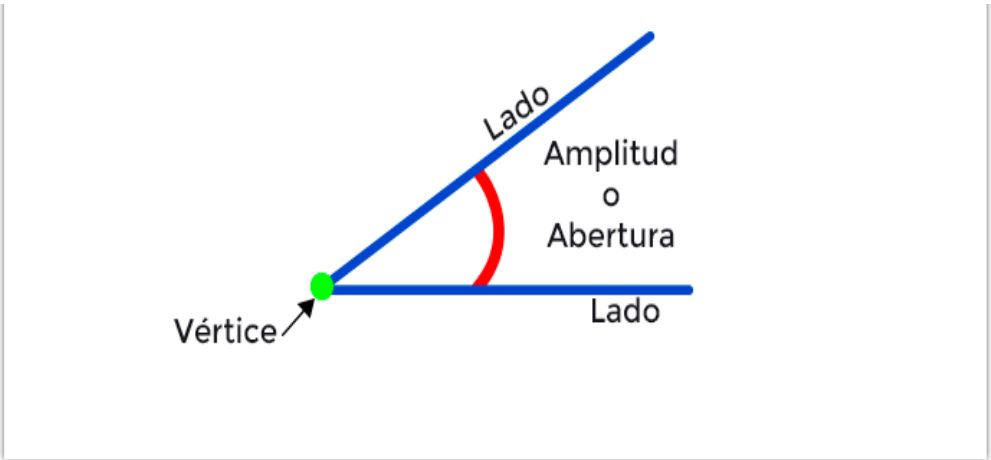


## Tipos de ángulos

Un **ángulo agudo** mide *menos* de 90 grados.

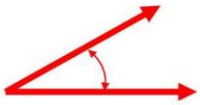

Un **ángulo obtuso** mide *más* de 90 grados.



Un **ángulo recto** mide *exactamente* 90 grados.

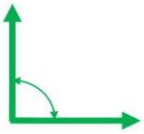

***Recuerdo y aprendo en Geometría*** Escribe el nombre a cada ángulo

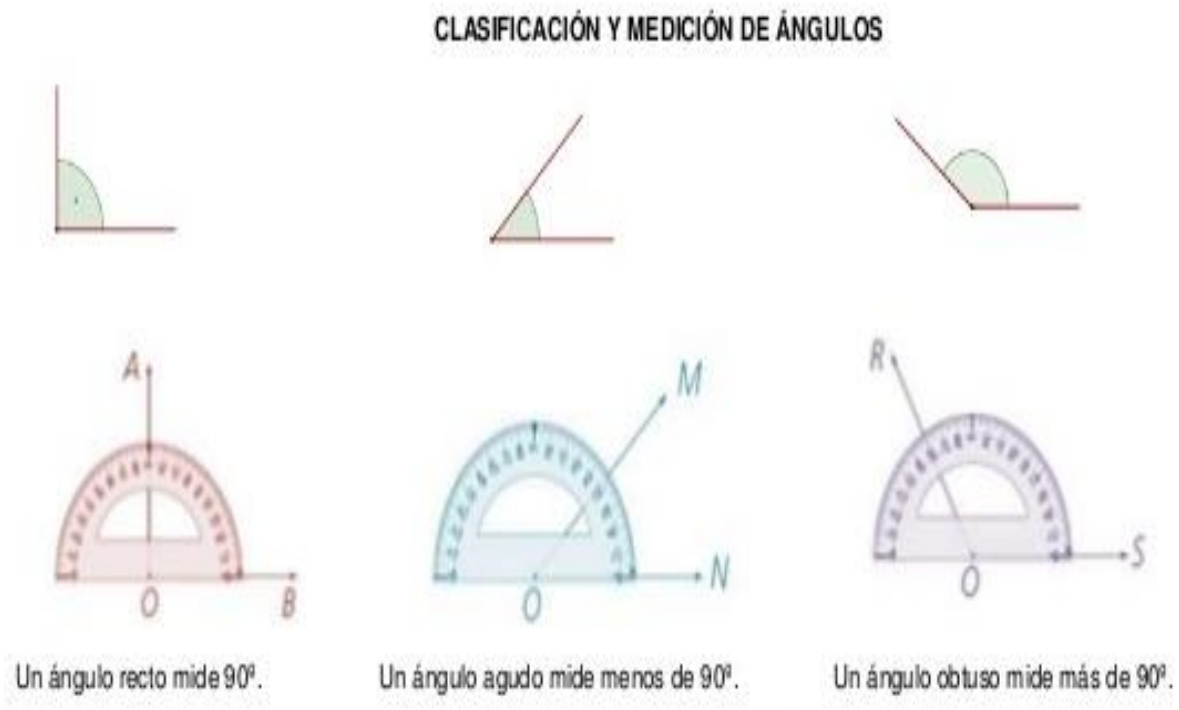


***Practico lo que aprendí en Geometría*** ← *Marca con rojo los ángulos rectos, con azul los obtusos y con verde los agudos que encuentres en la siguiente figura.*

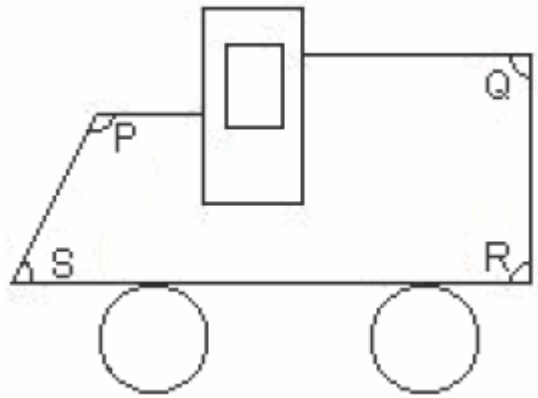

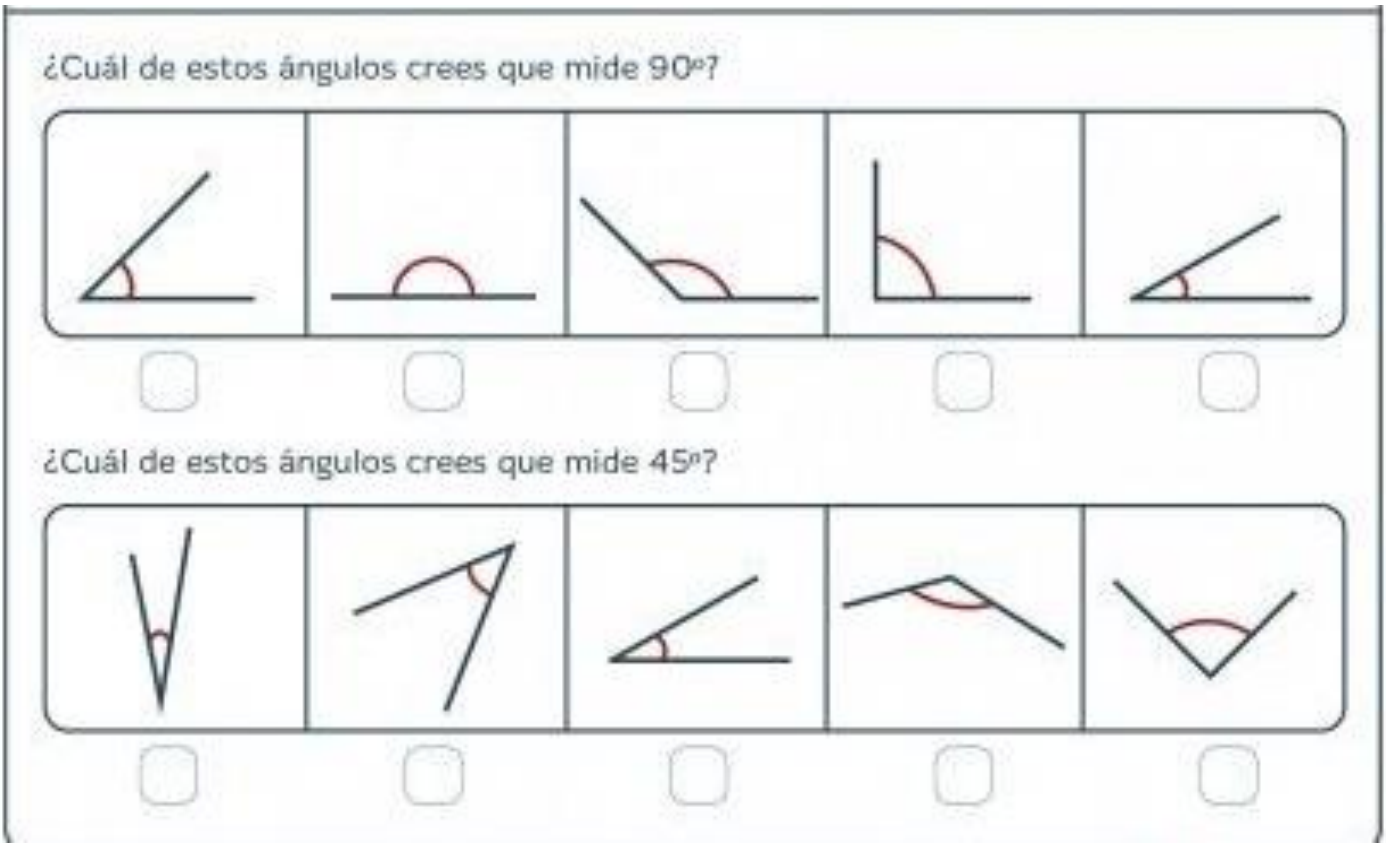


***Evaluación en Geometría*** ←Identifica los ángulos que hay en la ilustración y escribe su respectivo nombre

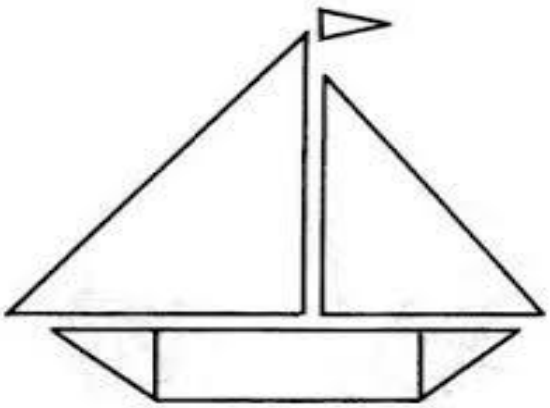
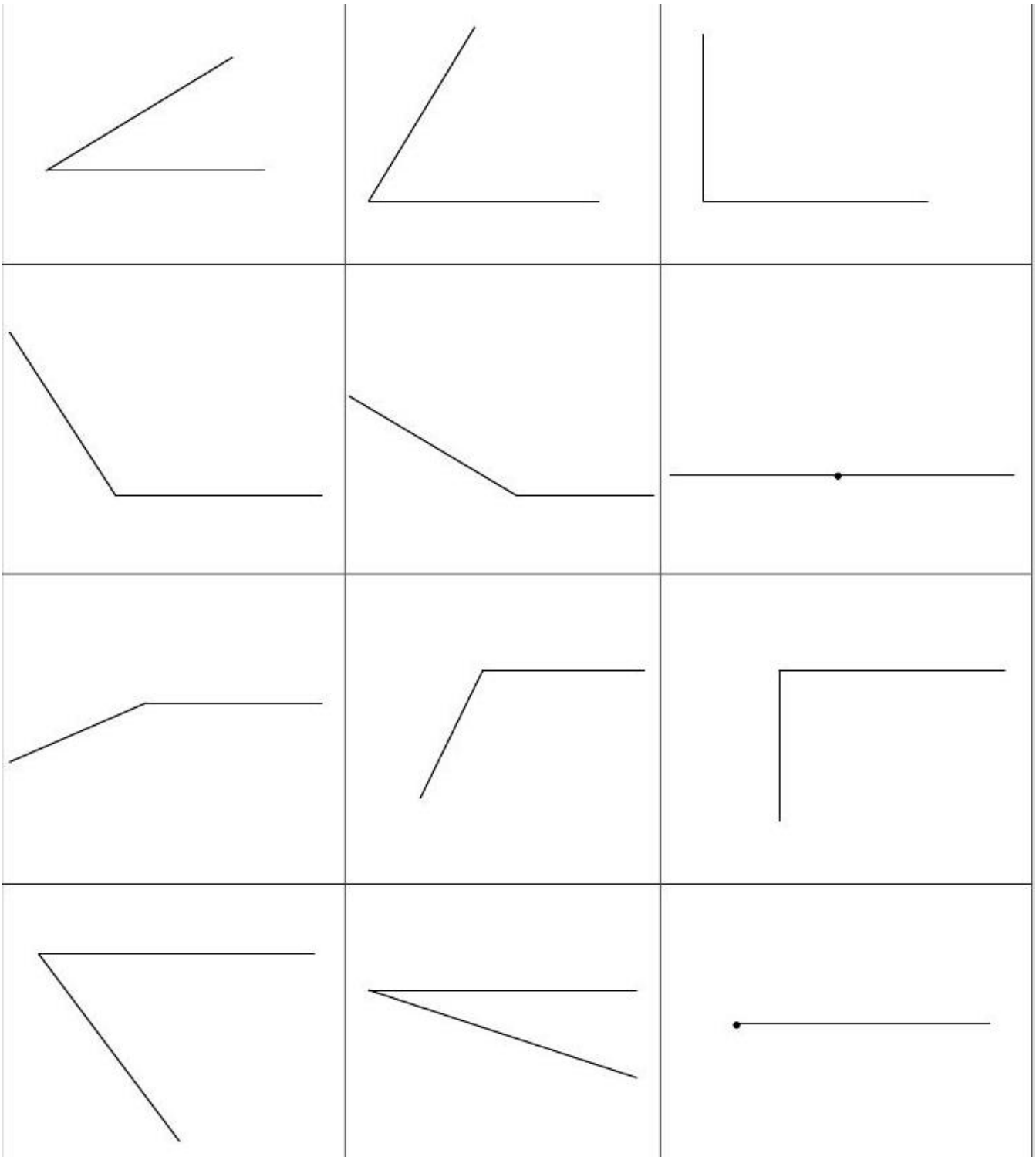
***ESCRIBE EL NOMBRE A CADA ANGULO***