INSTITUCIÓN EDUCATIVA FEDERICO SIERRA AR

Resoluciones Dptales. 15814 de 30/10/2002 - 9495 de 3/12/
NIT: 811039779-1 DANE: 105088001750
Bello - Antioquia

GUIA DE APRENDIZAJE NUMERO CUATRO GRADO TERCERO.
MAC MATEMATICAS APLICADAS A LA COTIDIANIDAD.

ASIGNATURA: GEOMETRIA	**SEMANA 7 Y 8**
PROPÓSITOS: Disfrutar de las matemáticas, desarrollar la curiosidad por éstas y comenzar a apreciar las posibilidades que ofrecen.	
FECHAS: Del 8 al 19 de marzo AÑO:2021 PERIODO: UNO	**GRADO:301-302-303-304**
RESPONSABLES: CLAUDIA ELENA VALDERRAMA Y ARNORIS GÓMEZ B.	
FUENTE TEORICA: Libros, pías, DBA, estándar, internet	
OBSERVACIONES: La guía debe ser realizada por el estudiante con letra legible y ortografía. **Entrega puntual en las fechas asignadas.** **Buena presentación del trabajo.** **Seguir las instrucciones de la guía.** **Participación activa en los encuentros virtuales, cumpliendo con las normas establecidas.** **Realizar en sus cuadernos o en la guía, las actividades y luego tomar foto legible como evidencia y enviar al correo del docente que corresponda las actividades quienes certificaron no tener conexión.** claudia.valderrama@virtual.edu.co **GRUPO 3-01** **GRUPO 3-02** arnoris.gomez@virtual.edu.co **GRUPO 3-03** **GRUPO 3-04**	

Base conceptual

- Construcción y medición de ángulos (continuación)

INTRODUCCIÓN

Esta guía te va a orientar para trabajar temas de GEOMETRIA
ANGULOS

¿Qué voy a aprender? Para comenzar, vas a leer el concepto de ANGULOS a partir de allí repasarás algunos temas importantes, Luego, **explorarás el mundo de la geometría.**

Observa la imagen, tacha los ángulos que identifiques y dibuja a PIPO utilizando figuras geométricas.

Recuerdo y aprendo en Geometría

1. Recuerdo, ¿Qué es un ángulo?
2. ¿Cómo se Clasifican los ángulos?

Observa el siguiente dibujo generado por el movimiento de un segmento con un punto fijo. Ahora completa los espacios:

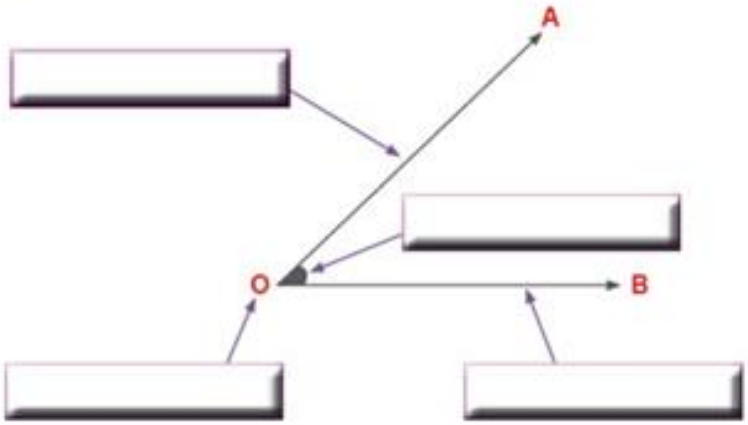

Por lo tanto; el ángulo es:

Practico lo que aprendí en Geometría ← *Marca con rojo los ángulos rectos, con azul los obtusos y con verde los agudos que encuentres en la siguiente figura.*



Observo y escribo el nombre del ángulo que representa cada pedazo de pizza

Evaluación en Geometría ←Dibuja la figura utilizando regla, luego identifica cada ángulo.



AUTO EVALUACIÓN

Colorea el circulo del semáforo y encierra una sola vez una nota según tu desempeño en la realización de las actividades de las guias en <u>mis asignaturas.(Matemáticas,geometria,estadistica,)</u>

Teniendo en cuenta los siguientes items.

- **Trabajo con agrado las actividades según la instrucción.**
- **Realizo las actividades facilmente.**
- **Comprendo las actividades a realizar.**
- **Coloreo las imágenes.**
- **Escribo las respuestas de las diferentes actividades.**
- **Asisto a los encuentros virtuales cumpliendo con las normas establecidas.**
- **Soy puntual en los envios de las actividades .**
- **La guía debe ser realizada por el estudiante con buena presentación con letra legible y ortografía.**

Encierra en un circulo una sola nota solo una vez de las que aparecen a continuacion.
Teniendo encuenta los colores del semafaro si escoges **<u>BASICO</u>** encierras una sola vez en un circulo una nota de las de basico y coloreas el circulo según el color.
Si escoges **<u>ALTO</u>** encierras una sola vez en un circulo una nota de las de alto
y coloreas el circulo según el color.
Si escoges **<u>SUPERIOR</u>** encierras una sola vez en un circulo una nota de las de Superior.
y coloreas el circulo según el color.

3.0	3.4	3.8	Rojo(basico)
3.1	3.5	3.9	
3.2	3.6		
3.3	3.7		
4.0	4.4		Amarillo(alto)
4.1	4.5		
4.2			
4.3			
4.6			Verde (superior)
4.7			
4.8			
4.9			
5.0			