INSTITUCIÓN EDUCATIVA FEDERICO SIERRA AR

Resoluciones Dptales. 15814 de 30/10/2002 - 9495 de 3/12/
NIT: 811039779-1 DANE: 105088001750
Bello - Antioquia

GUIA DE APRENDIZAJE NUMERO UNO GRADO TERCERO.
MAC MATEMATICAS APLICADAS A LA COTIDIANIDAD.

ASIGNATURA: GEOMETRIA	**SEMANA 1 Y 2**
PROPÓSITOS **Representar el espacio circundante para establecer relaciones espaciales.**	
FECHAS: Del 5 al 16 de Abril AÑO:2021 PERIODO: DOS	**GRADO:301-302-303-304**
RESPONSABLES: CLAUDIA ELENA VALDERRAMA Y ARNORIS GÓMEZ B.	
FUENTE TEORICA: Libros, pías, DBA, estándar, internet	
OBSERVACIONES: La guía debe ser realizada por el estudiante con letra legible y ortografía. **Entrega puntual en las fechas asignadas.** **Buena presentación del trabajo.** **Seguir las instrucciones de la guía.** **Participación activa en los encuentros virtuales, cumpliendo con las normas establecidas.** **Realizar las actividades en sus cuadernos y luego tomar foto legible como evidencia y enviar las actividades por classroom.** **Alguna inquietud puede comunicarse por los correos de cada docente según la Jornada.**	

claudia.valderrama@virtual.edu.co **GRUPO 3-01**
GRUPO 3-02

arnoris.gomez@virtual.edu.co **GRUPO 3-03**
GRUPO 3-04

Base conceptual

- Relaciones especiales (distancia, dirección, orientación etc)

INTRODUCCIÓN

¿CÓMO DARTE CUENTA CUÁL ES LA MANO DERECHA Y CUÁL ES LA MANO IZQUIERDA?
Observa la siguiente imagen y responde las preguntas.

¿Qué voy a aprender? Para comenzar, vas a observar la imagen y a responder la pregunta Luego, **explorarás el mundo de la geometría.**

1. ¿En qué mano el payaso tiene más globos?

2. ¿Cuantos globos tiene en la derecha?

3.¿Cuántos globos en la izquierda?

Recuerdo y aprendo en Geometría

Analiza cada uno de los siguientes dibujos. Observamos detalladamente dónde se Encuentran ubicados: la manzana de Luis, la mano de Daniela, el gato, el balón, el Conejo y las niñas.
Luego completa las frases teniendo en cuenta las siguientes palabras:
Derecha, izquierda, encima, debajo, delante, detrás.



Luís cogió una manzana con la mano

Daniela cogió su cabeza con la mano



El balón está _____de la Mesa.

El gato está _____de la casa.

El conejo está _____del árbol

Las niñas están _____de los niños

Practico lo que aprendí en Geometría

Observa la imagen y completa las oraciones.
Dentro-Fuera Cerca- lejos



La fuente de agua está _____del parque.
El semáforo está _____ del parque.
La niña está patinando _____del parque
Los carros están _____del parque y _____de la calle.
El semáforo está _____de la fuente de agua.
La niña del globo está_____de la fuente de agua

Evaluación en Geometría

Observa la imagen y Completa las frases con las palabras del cuadro.

Claves:

Derecha

Izquierda

Arriba

Abajo

Cerca

Lejos

Delante

Detrás

El pájaro está_____de la casa.

El árbol está a la _____de la casa.

Andrés está jugando_____de la casa.

El abuelito está_____del árbol.

La pelota está_____del perro.

El pájaro está_____del abuelo.

La silla está_____de la mesa.