INSTITUCIÓN EDUCATIVA FEDERICO SIERRA ARANGO
Resoluciones Dptales. 15814 de 30/10/2002 - 9495 de 3/12/2001
NIT: 811039779-1 DANE: 105088001750
Bello - Antioquia

GUIA DE APRENDIZAJE NUMERO UNO GRADO TERCERO.
MAC MATEMATICAS APLICADAS A LA COTIDIANIDAD.

ASIGNATURA: GEOMETRIA	**SEMANA 1 Y 2**
PROPÓSITO: Identificar poligonos y cuadrilateros	
FECHAS: Del 13 al 24 de Septiembre AÑO:2021 PERIODO: cuatro	**GRADO:301-302-303-304**
RESPONSABLES: CLAUDIA ELENA VALDERRAMA Y ARNORIS GÓMEZ B.	
FUENTE TEORICA: Libros, pías, DBA, estándar, internet	
OBSERVACIONES: La guía debe ser realizada por el estudiante con letra legible y ortografía. **Entrega puntual en las fechas asignadas.** **Buena presentación del trabajo.** **Seguir las instrucciones de la guía.** **Participación activa en los encuentros virtuales, cumpliendo con las normas establecidas.** **Realizar en sus cuadernos o en la guía, las actividades y luego tomar foto legible como evidencia y enviarlas.** claudia.valderrama@virtual.edu.co **GRUPO 3-01** **GRUPO 3-02** arnoris.gomez@virtual.edu.co **GRUPO 3-03** **GRUPO 3-04**	

Base conceptual: Cuadrilateros y polígonos.

Temas cuarto periodo.

-Diseños y construcciones con polígonos y cuadrilateros.

1.Colorea cada una de las siguientes figuras.Observa sus caracteristicas y completa la tabla.

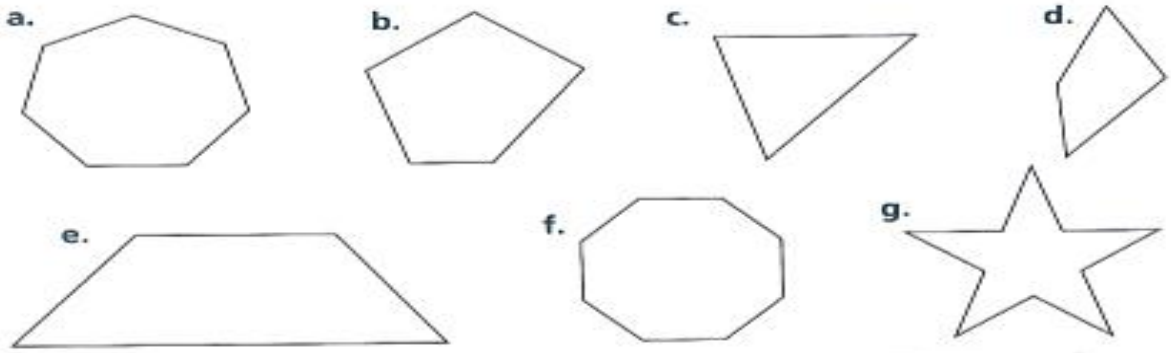

Polígono	Número de lados	Nombre
a.	7	
b.		
c. d.		
e.		
f.		Octágono
g.		

2.Indica cada tipo de poligono indicando con una x

Figura	Triángulo	Cuadrilátero	Pentágono	Hexágono
				
				

Observa muy bien las figuras geometricas anteriores y responde correctamente,
¿Cuántos ángulos internos tiene el exágono.?----------
¿Cuántas vertices tiene el pentágono?----------
¿Cuántos lados tiene el exágono?----------
¿Cuál es la figura que forma un paralelogramo?----------

¿Cuáles son las figuras que tienen solo dos lados paralelos

3.

Clasificación: Ubica cada objeto en la figura que corresponda.

Circulo		Cuadrado		Triangulo		Rectángulo	