INSTITUCIÓN EDUCATIVA FEDERICO SIERRA ARANGO
Resoluciones Dptales. 15814 de 30/10/2002 - 9495 de 3/12/2001
NIT: 811039779-1 DANE: 105088001750
Bello - Antioquia

GUIA DE APRENDIZAJE NUMERO CINCO GRADO TERCERO.
MAC MATEMATICAS APLICADAS A LA COTIDIANIDAD.

ASIGNATURA: GEOMETRIA	**SEMANA 9**
PROPÓSITO Identifica las unidades arbitrarias de un área.	
FECHAS: Del 30 Agosto al 3 Septiembre AÑO:2021 PERIODO: TRES	**GRADO:301-302-303-304**
RESPONSABLES: CLAUDIA ELENA VALDERRAMA Y ARNORIS GÓMEZ B.	
FUENTE TEORICA: Libros, pías, DBA, estándar, internet	
OBSERVACIONES: La guía debe ser realizada por el estudiante con letra legible y ortografía. **Entrega puntual en las fechas asignadas.** **Buena presentación del trabajo.** **Seguir las instrucciones de la guía.** **Participación activa en los encuentros virtuales, cumpliendo con las normas establecidas.** **Realizar en sus cuadernos o en la guía, las actividades y luego tomar foto legible como evidencia y enviarlas.** claudia.valderrama@virtual.edu.co **GRUPO 3-01** **GRUPO 3-02** arnoris.gomez@virtual.edu.co **GRUPO 3-03** **GRUPO 3-04**	

Base conceptual: UNIDADES ARBITRARIAS DE AREA.
El área es la medida de la superficie de una figura figura. Cuando se expresa el área de una superficie, es necesario indicar la unidad de área utilizada.

RETROALIMENTACION DEL TEMA.

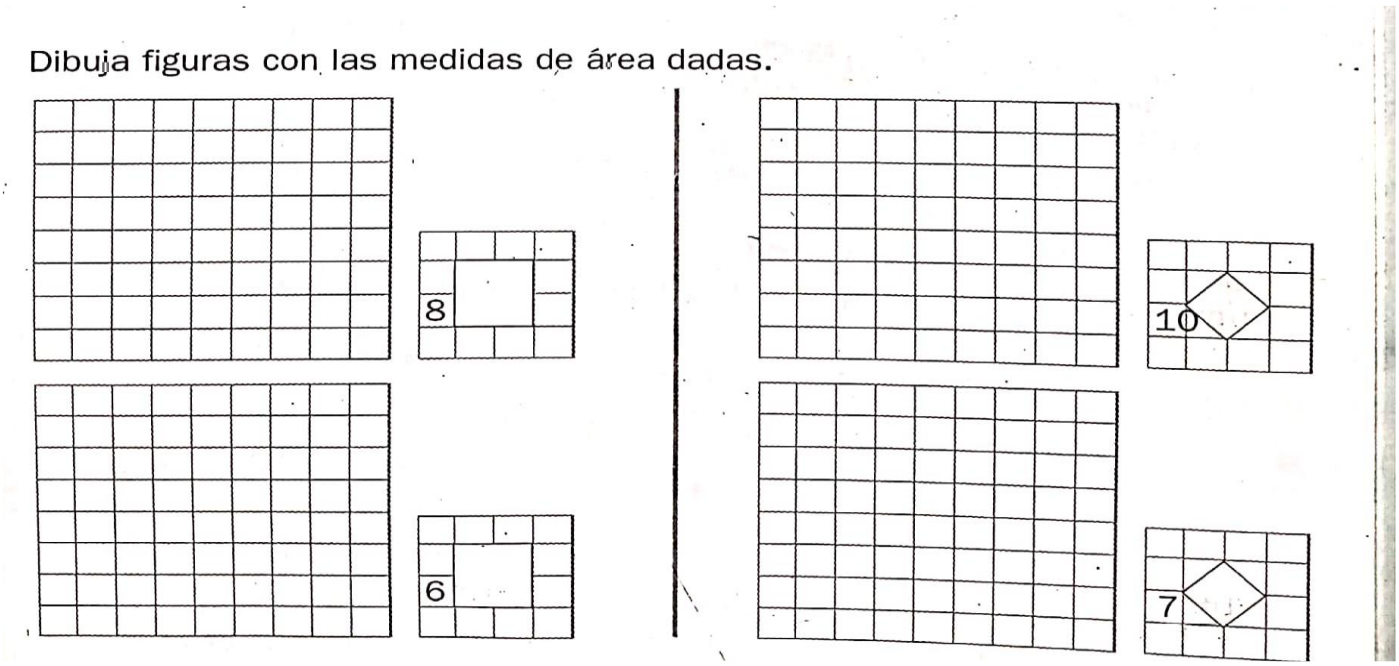

Lina y David juegan a cubrir figuras, usando piezas iguales.

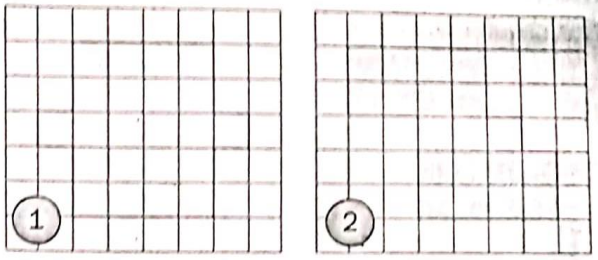

- ¿Cuántas piezas necesitó Lina para cubrir la figura 1? _____
- ¿Cuántas piezas necesitó David para cubrir la figura 1? _____
- ¿Cuántas piezas necesitó Lina para cubrir la figura 2? _____
- ¿Cuántas piezas necesitó Lina para cubrir la figura 2? _____
- ¿Quién usó menos piezas? _____ ¿Por qué? _____

_____

A Silvia le gusta jugar con rompecabezas. Silvia construyó estas cuatro figuras con triángulos iguales. Observa las figuras, lee la información y, luego, contesta.



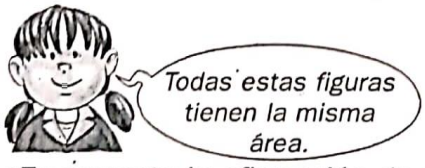

- ¿Es correcta la afirmación de Silvia? _____
- ¿Por qué? _____

_____

_____